1 Indica con V (Verdadero) o F (falso) los siguientes enunciados. Corrige de manera oral los enunciados falsos.

- La Península Ibérica ha sido desde hace 3000 años punto de encuentro de multitud de pueblos:
- En la Edad Antigua existieron tres tipos de pueblos:
- Los pueblos autóctonos fueron los íberos, celtas y fenicios:
- Los pueblos colonizadores fueron los Tartessos y griegos:
- Los pueblos conquistadores fueron los cartagineses y romanos:
- Los celtas conocían la moneda y la escritura:
- Disponemos de mucha información sobre los Tartessos:
- Los fenicios poseían la talasocracia (poder del mar):
- Los fenicios fundaron colonias como Carthago Nova y Ebyssos:
- Los griegos fundaron colonias como Emporion y Rhode:
- Los romanos y los cartagineses se enfrentaron en la guerra del Peloponeso:
- La sociedad romana se organizaba en personas libres, familias indígenas, plebe y esclavos:
- Los celtas llamaron a Península Ibérica y las islas Baleares Hispania:
- El proceso de asimilación de los pueblos conquistados de la cultura del imperio romano se llama romanización:
- Las casa de los pueblos íberos eran rectangulares:
- la economía de los celtas era autosuficiente:
- El pueblo Celta era experto en la metalurgia:

LIVEWORKSHEETS

2 Completa la línea del tiempo

3 Señala donde estaban ubicados los celtas, íberos y Tartessos en el mapa

Celtas

Íberos

Tartessos

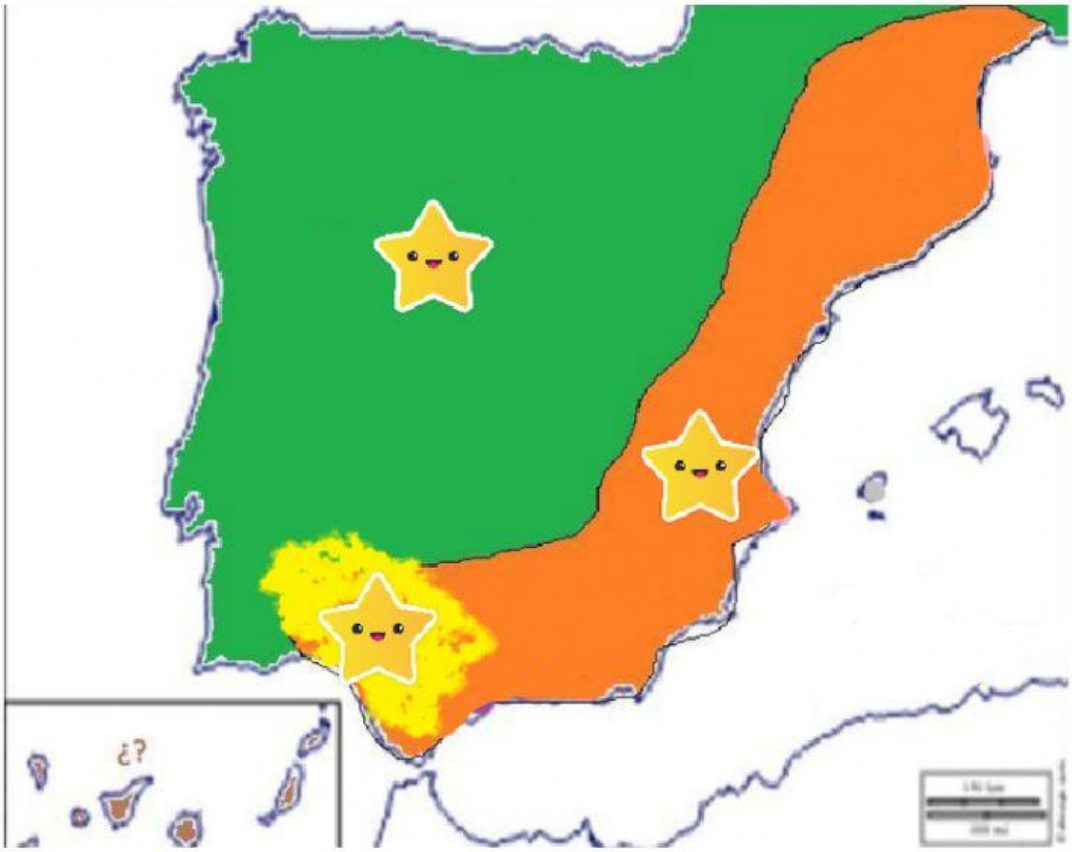

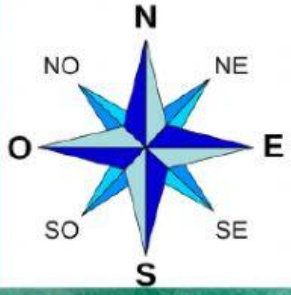

LIVEWORKSHEETS

4 Completa la tabla sobre los diferentes pueblos de la Península Ibérica

	CELTAS	ÍBEROS
ZONA		
VIVÍAN EN		
CÓMO ERAN LAS CASAS		
ECONOMÍA		
CREENCIAS		

5 Completa el siguiente texto sobre las guerras púnicas

_____ (264-241 a.C.). Fue una guerra eminentemente _____. Empezó con la derrota de los _____ en _____. El resultado fue una aplastante victoria _____. Cartago firmó en 241 a.C. un _____.
_____ (218-201 a.C.). Empezó por culpa de los _____ que atacaron la ciudad hispana de _____. Al mando de los cartagineses se encontraba el general _____. Este, desoyendo las amenazas de Roma, con su ejército montado en elefantes cruzó los Alpes para invadir Italia. Los _____ le propinaron a _____ la derrota más humillante de su historia. El ejército de Cartago estuvo en Italia dieciséis años, pero esta situación se resolvió tras la victoria _____. Los _____ fueron expulsados de _____ y Roma bloqueo a Cartago de sus colonias comerciales.
_____ (149-146 a.C.). Consistió en poco más que el asedio de la ciudad de _____. Publio Cornelio Escipión Emiliano derrotó a los _____ tras 3 años de asedio.

LIVEWORKSHEETS

6 Completa el mapa de la división territorial de Hispania

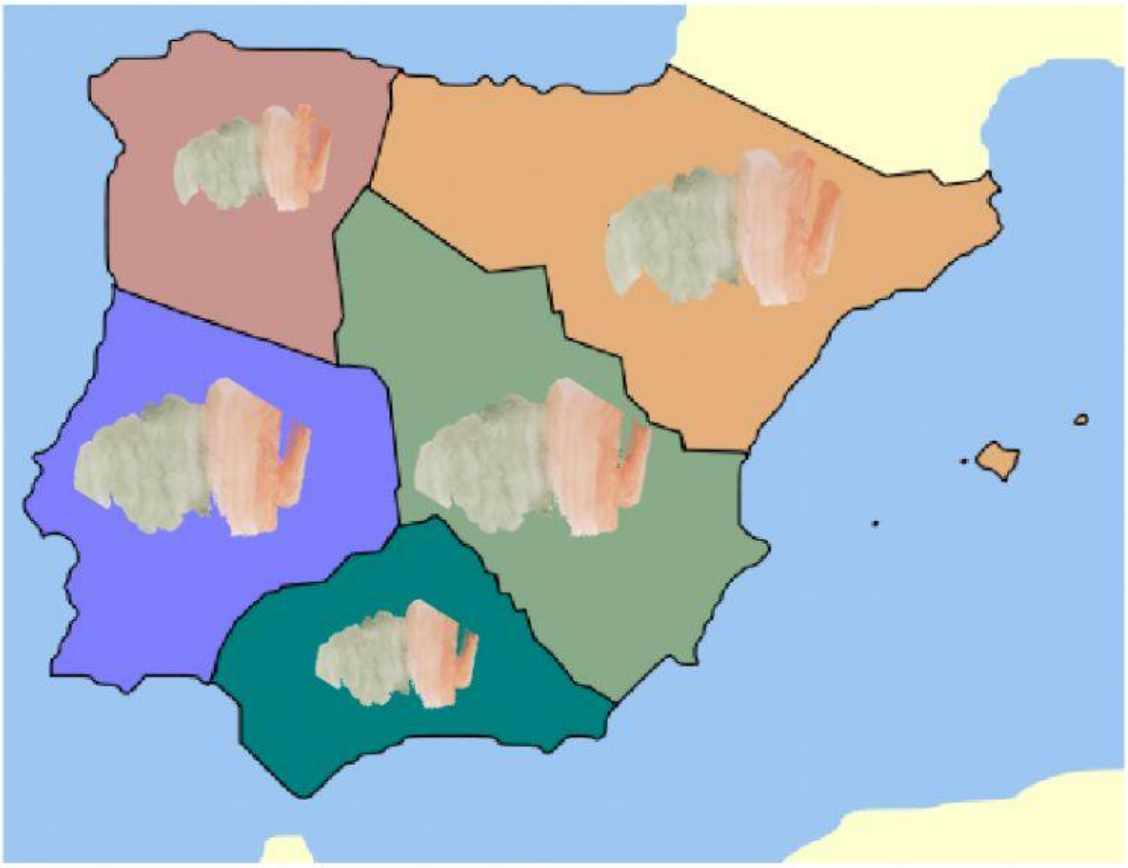

7 Elige la repuesta correcta sobre la Hispania romana: sociedad y economía

- sociedad romana se organizaba en dos grupos:
- Entre las personas libres habían diferencias:
- Los más ricos eran las familias procedentes de:
- Los artesanos, tenderos y pequeños propietarios pertenecían a la:
- Los habitantes de las ciudades indígenas que se habían sublevado contra los romanos conformaban los:
- Roma estaba interesada en los recursos de Hispania, en la abundancia de:
- La producción agrícola aumentó con el uso de:
- Produjeron ánforas, vino, lino, esparto, salazón de pescado y:
- El comercio se desarrolló gracias a una intensa:

LIVEWORKSHEETS

8 Marca las claves correctas sobre la romanización

Latín tribus esclavos Hispania Derecho romano

Religión calzadas legionarios ciudades cultivos

Vid Comercio

9 Completa la tabla con los diferentes pueblos

PUEBLOS AUTÓCTONOS	PUEBLOS COLONIZADORES	PUEBLOS CONQUISTADORES

LIVEWORKSHEETS