SOAL EVALUASI

Nama :

No :

Kelas :

1. **Bangun apakah yang memiliki dua pasang sisi sama panjang?**
   Jawab:

2. **Bangun apakah yang memiliki dua diagonal sama panjang?**
   Jawab:

3. **Dari gambar di samping, berapa panjang dan lebar bangun tersebut?**
   Jawab:

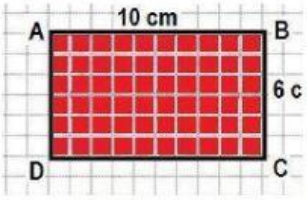

4. **Dari gambar di samping, berapa panjang sisi bangun tersebut?**
   Jawab:

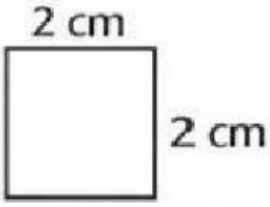

5. **Berapa luas bangun di samping?**
   Jawab:

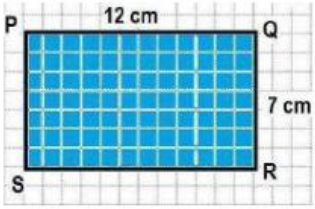

6. **Berapa luas bangun di samping?**
   Jawab:

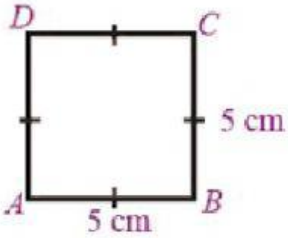

7. **Jika sebuah persegi panjang memiliki luas 36 cm^2 sedangkan lebarnya 4 cm, berapakah panjang persegi panjang tersebut?**
   Jawab:

LIVEWORKSHEETS