ДОДАЄМО І ВІДНІМАЄМО ЧИСЛА ЧАСТИНАМИ

1 Кожне число заміни сумою з даним першим доданком.

35 = 4 + ☐ 56 = 54 + ☐ 25 = 3 + ☐ 49 = 43 + ☐ 27 = 3 + ☐ 49 = 46 + ☐

2 Знайди значення виразів за схемами.

34 + 58 = . . + . + . . = . .
. + . .

56 + 37 = . . + . + . . = . .
. + . .

32 − 27 = . . − . . − . = . .
. . + .

82 − 76 = . . − . . − . = . .
. . + .

3 Скороти міркування, використовуючи схеми.

28 + 34 = . . + . . = . .
. + . .

78 + 14 = . . + . . = . .
. + . .

84 − 65 = . . − . = . .
. . + .

65 − 48 = . . − . = . .
. . + .

4 Обчисли значення виразів по діях.

90 − (37 + 5 − 32) =
1) + =
2) − =
3) − =

97 − (65 − 8) − (12 − 6) =
1) − =
2) − =
3) − =
4) − =

5 Прочитай задачу й добери до неї схему.

В Африці є озеро Чад. У дощовий період його глибина сягнула 11 м. За першу половину літа озеро висохло на 3 м, за другу — ще на кілька метрів. На скільки метрів зменшилася глибина озера за другу половину літа, якщо його глибина стала 4 м?

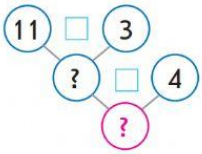

Продовж міркування від числових даних до запитання, користуючись схемою. Доповни її.

Оскільки знаємо два числові значення: I — глибину озера — 11 м; II — на скільки вона зменшилася за першу половину літа — на 3 м, то можемо дізнатися

Дізнаємося про це дією…

Коли знатимемо два числові значення: I — якою стала глибина озера після першої половини літа; II — якою вона стала наприкінці літа — 4 м, можемо дізнатися…

Дізнаємося про це дією…

6 Розглянь малюнок.

Назви радіус кола

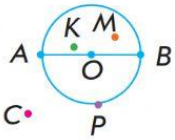

Назви діаметр кола

Які точки належать колу?

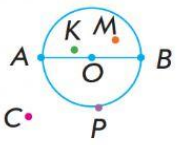

Які точки належать кругу?

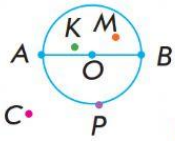

LIVEWORKSHEETS