Volume Kubus



Name: _____

Class: _____

LIVEWORKSHEETS

A. Simaklah video berikut.



B. setelah menonton vidio, kerjakan pertanyaan berikut dengan cara drag jawaban pada ngambar yang benar

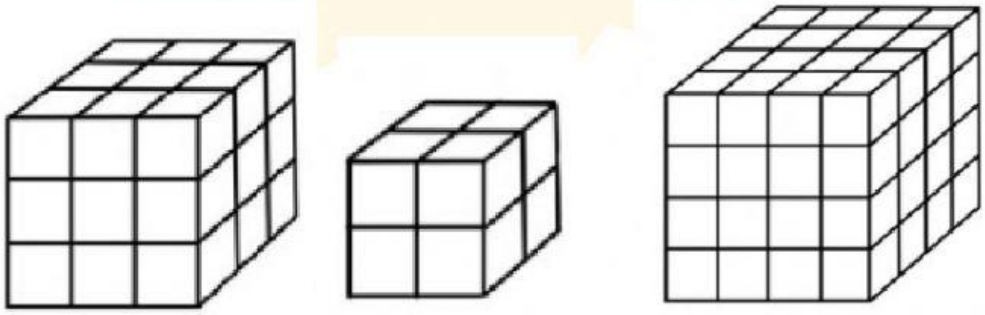

64 satuan

27 satuan satuan

8 satuan

LIVEWORKSHEETS

Misalkan, sebuah kubus memiliki sepanjang s, maka volume kubus adalah

= ..... x ..... x .....
= .....

Jadi, volume kubus adalah

.....

C. Tentukan berapa kubus untuk memenuhi balok dibawah ini.

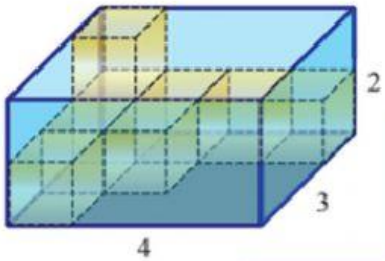

Berapakah kubus satuan yang dibutuhkan untuk mengisi balok hingga penuh dan Apakah banyak kubus satuan yang memenuhi balok hingga penuh merupakan volume balok.

Jawab :

LIVEWORKSHEETS