Kontrolinis testas „Plokštumos figūros“

1. Kiekvienam iš kampų nurodytų laipsniais priskirkite jo rūšį.

∠AOB = 123° – ____ ∠FOB = 360° – ____

∠COB = 90° – ____ ∠EOB = 180° – ____

∠DOB = 85° – ____ ∠HOB = 255° – ____

2. Koks kampo 1 dydis laipsniais?

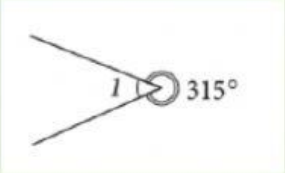

∠ 1 = ____ °

3. Raskite klaustuku pažymėto kampo dydį laipsniais.



A. 60 laipsnių
B. 210 laipsnių
C. 150 laipsnių
D. 160 laipsnių

4. Užrašykite trikampių rūšį pagal kampus:

1.

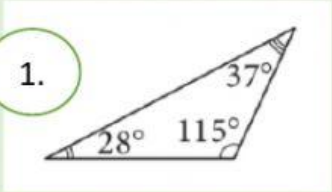

____

2.

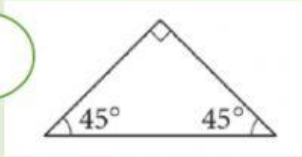

____

5. Apskaičiuokite trikampio perimetrą. Rašykite tik atsakymą.

P = ____ cm

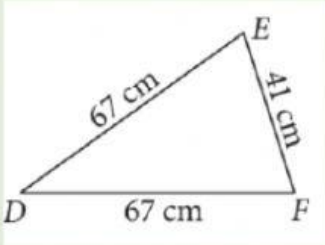

6. Keturkampio kampų suma lygi ____ laipsnių.

7. Kuriais atvejais apskaičiuotume stačiakampio perimetrą?

A. P = AB + BC
B. P = AB +BC + CD + DA
C. P = 2* AB + 2 * BC
D. P = AB * BC
E. P = 2 * (AB + BC)

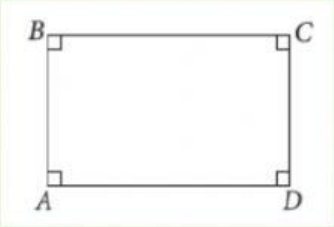

8. Apskaičiuokite daugiakampio perimetrą:

P = ____ cm

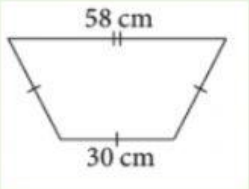

LIVEWORKSHEETS

9. Jei apskritimo spindulys r = 18 cm, tai jo skersmuo d = ____ cm

   Jei apskritimo skersmuo d = 53 mm, tai jo spindulys r = ____ mm

10. Žiūrėdami į paveikslėlį pateiktoms atkarpoms priskirkite pavadinimus:

OA – ____

DE – ____

BC – ____

OB – ____

OF – ____

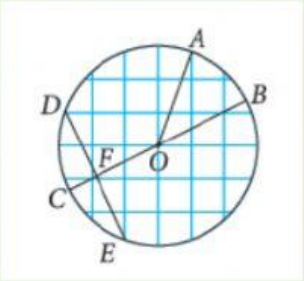

LIVEWORKSHEETS