ชื่อ..... ชั้น ..... เลขที่ .....

แบบฝึกหัด การเลื่อนขนาน 1

1. จงเติมคำตอบลงในช่องว่างต่อไปนี้

(1)

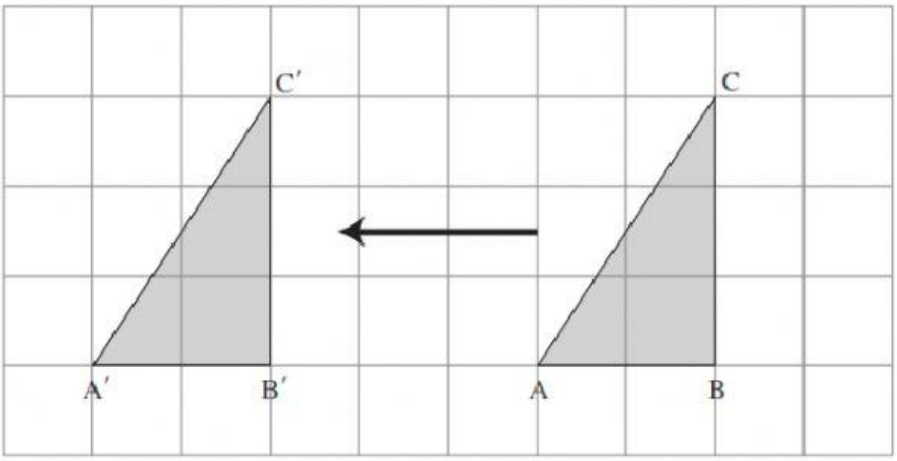

ก) รูปต้นแบบ คือ .....

ข) ภาพที่ได้จากการเลื่อนขนาน คือ .....

ค) รูปที่ได้จากข้อ ก และข้อ ข มีความสัมพันธ์กันอย่างไร.....

ง) ทุกจุดของรูปต้นแบบเลื่อนขนานไปทาง ..... เป็นระยะทาง..... หน่วย

..... เป็นระยะทาง..... หน่วย

(2)

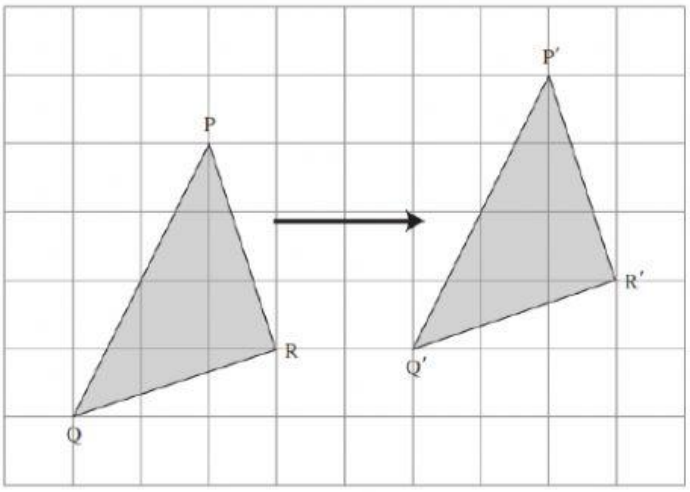

ก) รูปต้นแบบ คือ .....

ข) ภาพที่ได้จากการเลื่อนขนาน คือ .....

ค) รูปที่ได้จากข้อ ก และข้อ ข มีความสัมพันธ์กันอย่างไร.....

ง) ทุกจุดของรูปต้นแบบเลื่อนขนานไปทาง ..... เป็นระยะทาง..... หน่วย

..... เป็นระยะทาง..... หน่วย

LIVEWORKSHEETS

ชื่อ..... ชั้น ..... เลขที่ .....

(3)

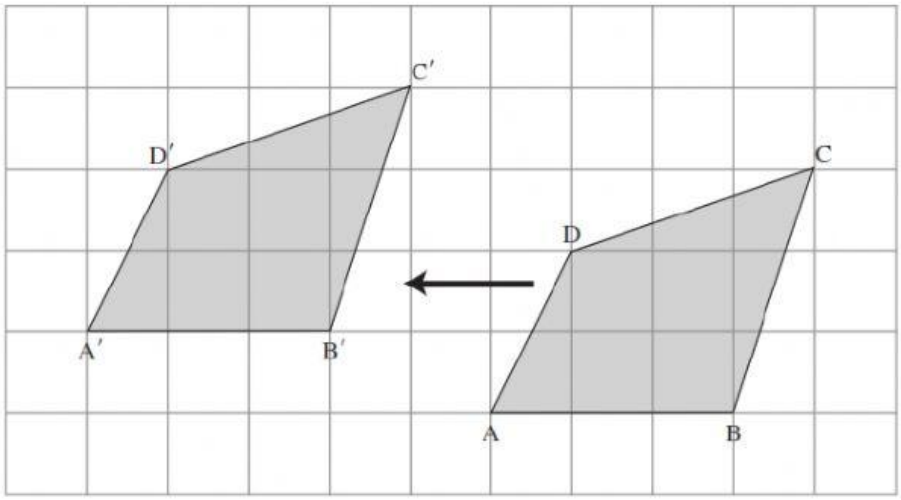

ก) รูปต้นแบบ คือ .....

ข) ภาพที่ได้จากการเลื่อนขนาน คือ .....

ค) รูปที่ได้จากข้อ ก และข้อ ข มีความสัมพันธ์กันอย่างไร.....

ง) ทุกจุดของรูปต้นแบบเลื่อนขนานไปทาง ..... เป็นระยะทาง..... หน่วย

..... เป็นระยะทาง..... หน่วย

LIVEWORKSHEETS