COLEGIO EVITA ROSSO

LA PLATA HUILA

GRADO SEGUNDO

ELEMENTOS DE LA RECTA.

1- Arrastra los nombres según corresponda:

RECTAS	SEMIRRECTAS	SEGMENTOS
	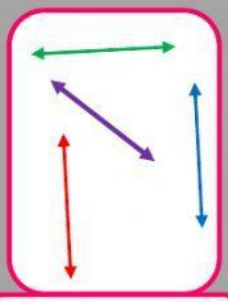	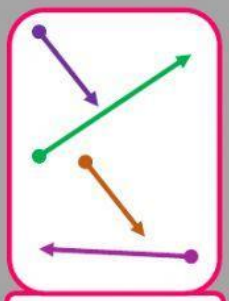

2- Une cada figura con la cantidad de segmentos que la forman.









4	3	5	6

3- Observa la ilustración y escriba con números cuántos segmentos, semirrectas y rectas, se utilizaron. **(NO contar la puerta, ni la ventana)**

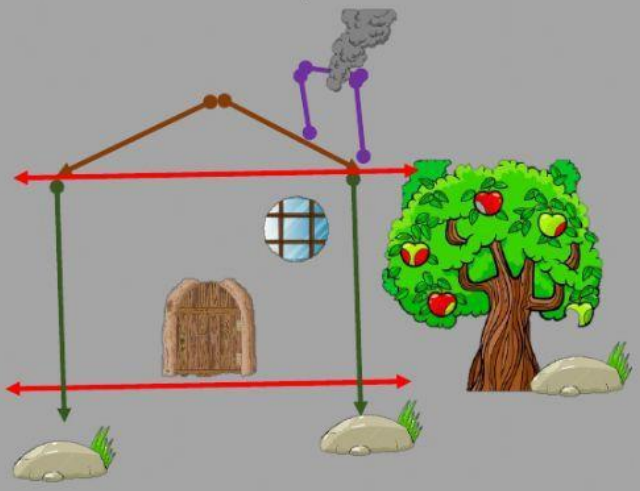

RECTAS	
SEMIRRECTAS	
SEGMENTOS	

LIVEWORKSHEETS