ورقة عمل

مادة : الرياضيات الصف الرابع الابتدائي

الإسم: ..... التاريخ: .... / .... / ...١٤هـ

الموضوع: تمثيل النقاط على خط الأعداد.

ضعي خطاً تحت الإجابة الصحيحة:

النقطة التي تمثل العدد ٩٦

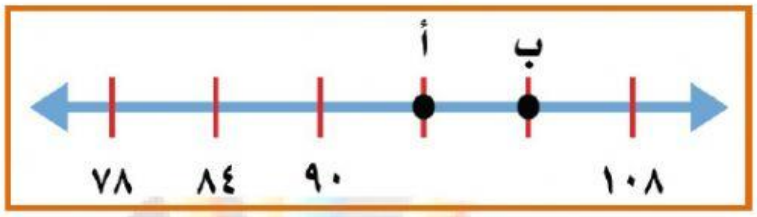

(ب ـ أ ـ أ،ب معاً)

العدد الذي تمثله النقطة أ على خط الأعداد:

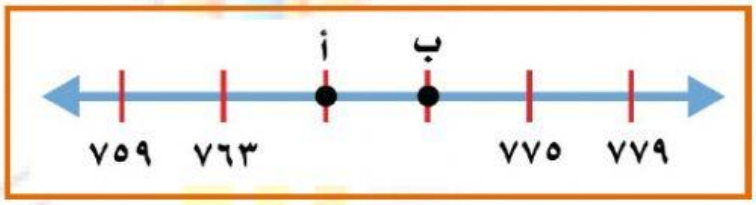

(٧٦٧ ـ ٧٥٩ ـ ٧٧١)

أحيطي الإجابة الصحيحة مما يأتي:

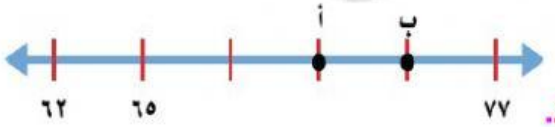

النقطة التي تمثل العدد ٧١ على خط الأعداد.

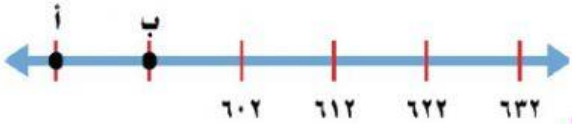

النقطة التي تمثل العدد ٥٨٢ على خط الأعداد.

أ/ عواطف الجربوع

LIVEWORKSHEETS