YAYASAN MGR. GABRIEL MANEK, SVD

SMP KATOLIK SANTA FAMILIA KUPANG

AKREDITASI A

Jln. Oebolifo III Kel. Sikumana Kec. Maulafa Tlpn. (0380) 828990

PENILAIAN HARIAN. I

Kerjakan Mnggunakan Langkah – langkah Penyelesaian!!!!!

1. Perhatikan gambar berikut !!!!

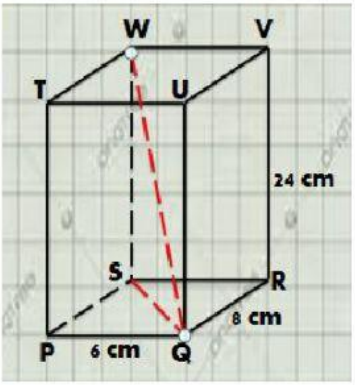

Berapakah:

a. Keliling Segitiga QSW!!!

Jawaban :

b. Luas Segitiga QSW!!!!

Jawaban :

2. Berdasarkan gambar di bawah ini,berapakah Panjang AC + CD ???

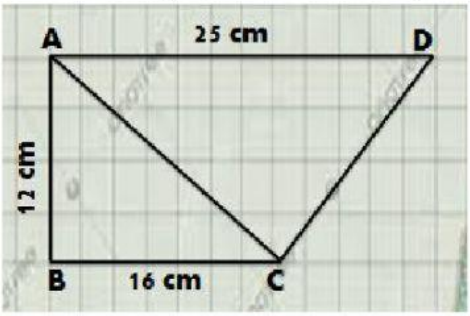

Jawaban :

LIVEWORKSHEETS

3. Perhatikan gambar di bawah. Segitiga ACD siku – siku di D, panjang BD =8 cm, BC = 17 cm, dan AC = 25 cm. Berapakah panjang AB???

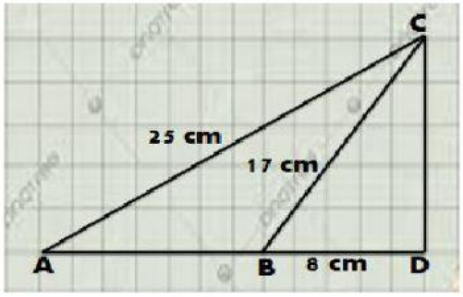

Jawaban :

4. Dua peawat sedang terbang melintasi kapal induk. Suatu radar yang berlokasi sejayh 15 km dari kapal induk berdeteksi bahwa posisi kedua pesawat tempur tersebut berjarak 39 km dan 25 km dari radar. Berapakah jarak kedua pesawat tempur tersebut diukur berdasarkan ketinggiannya??

Jawaban :

5. Sebuah kapal berlayar dari kota A Kearah timur sejauh 180 km sampai dikota B. Dari kota B berlayar keselatan sejauh 120 kmsampai dikota C. Kemudian dari kota C dilanjutkan berlayar kebarat sejauh 270 km sampai dikota D. Jika kapal akan kembali dari kota D ke kota A, berapakah jarak terdekat kota D dan kota A???

Jawaban :

6. Perhatikan gambar berikut!!!

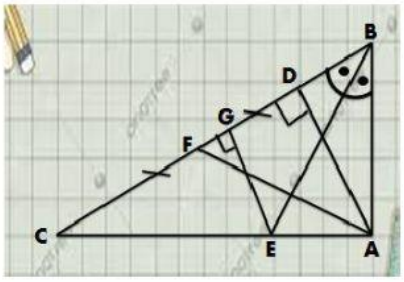

LIVEWORKSHEETS

Silahkan Jodohkan garis – garis segitiga istimewa berdasarkan gambar diatas pada tabel berikut !!!



LIVEWORKSHEETS