EDUCACIÓN FÍSICA

EL APARATO LOCOMOTOR: SISTEMA ESQUELÉTICO

1. COMPLETA LA FICHA CON LOS HUESOS DEL TRONCO.

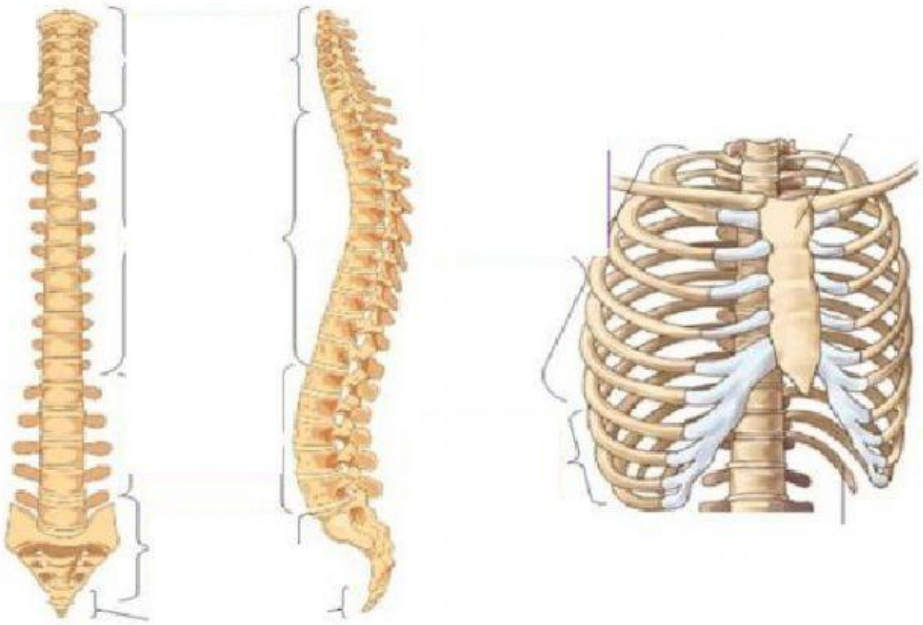

COLUMNA VERTEBRAL | CERVICALES | DORSALES | COSTILLAS

LUMBARES | SACRAS | COXALES | ESTERNÓN

VERDADERAS O EXTERNALES | FALSAS | FLOTANTES

LIVEWORKSHEETS

2. COMPLETA LA FICHA CON LOS HUESOS DE LAS EXTREMIDADES SUPERIORES.

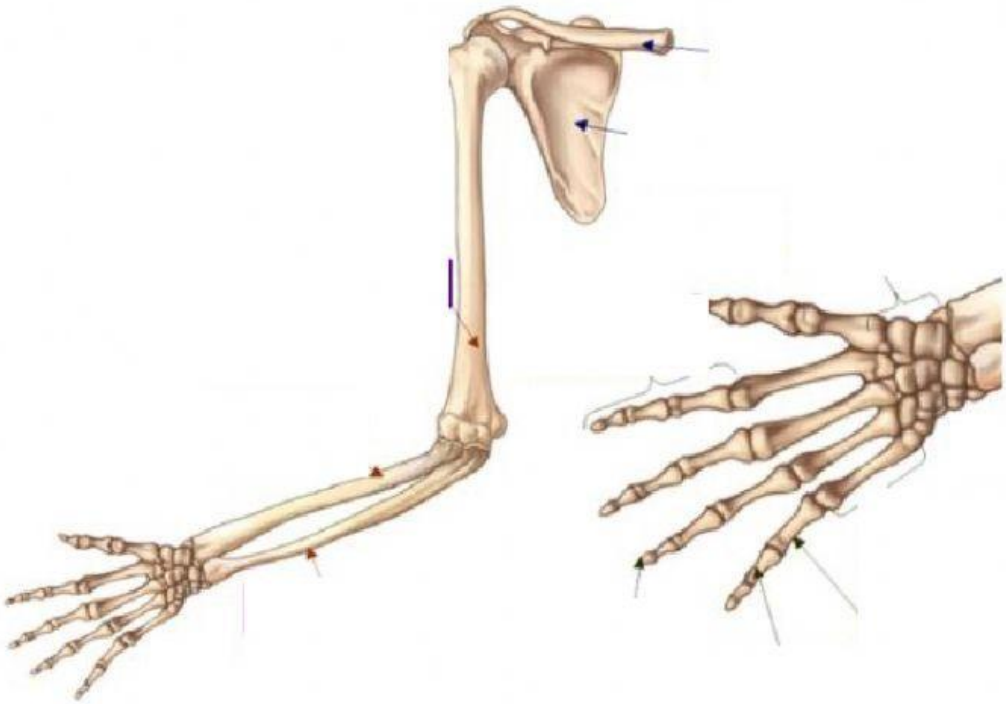

CINTURA ESCAPULAR BRAZO ANTEBRAZO CÚBITO

MANO HÚMERO RADIO FALANGES

CLAVÍCULA OMÓPLATO CARPO METACARPO

FALANGE FALANGINA FALANGETA

LIVEWORKSHEETS

3. COMPLETA LA FICHA CON LOS HUESOS DE LAS EXTREMIDADES INFERIORES.

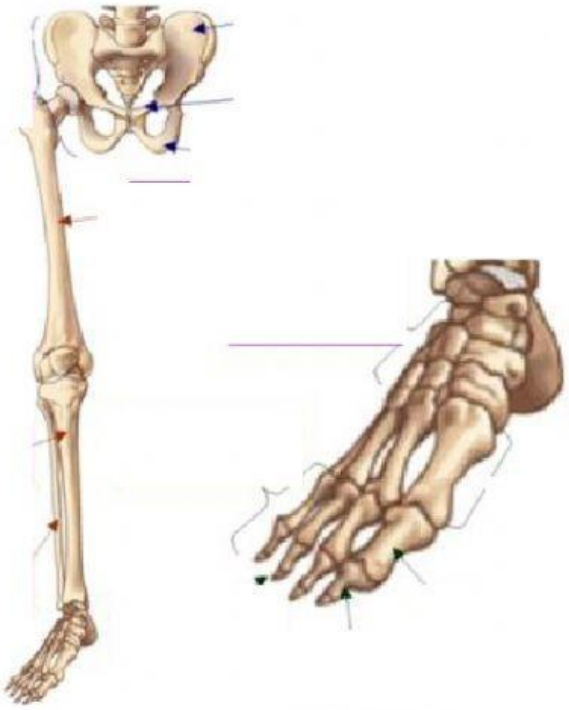

COXAL	ILION	PUBIS	ISQUION
FÉMUR	CINTURA PELVIANA	MUSLO	PIERNA
PIE	TIBIA	PERONÉ	TARSO
FALANGES	METATARSO	1ª FALANGE	2ª FALANGE
	3ª FALANGE		

LIVEWORKSHEETS