**Untuk soal nomor 1 dan 2, isilah titik-titik dengan pilihan nama organ yang tepat pada kotak di sebelah kanan!**

1.

Berfungsi untuk melindungi organ ...

2.

Berfungsi untuk melindungi organ ...

**Pilihan jawaban untuk nomor 1 dan 2.**

*a. otak.*
*b. ginjal.*
*c. jantung.*
*d. lambung.*

LIVEWORKSHEETS

**Untuk soal nomor 3 dan 4 perhatikan gambar berikut.**

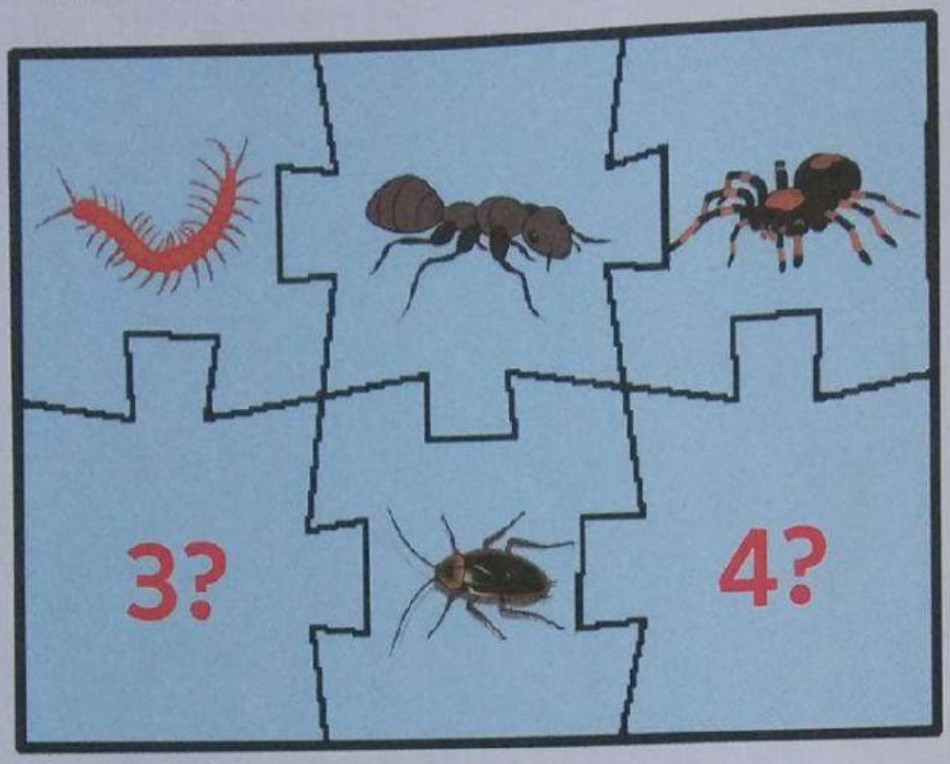


Lengkapilah *puzzle* yang hilang dengan menyatakan hubungan paling tepat pada pilihan jawaban berikut!

**Pilihan Jawaban**

3.

*a.*

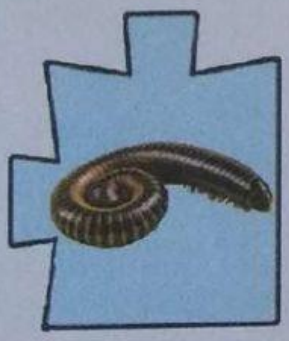

*b.*

*c.*

*d.*

4.

*a.*

*b.*

*c.*

*d.*

LIVEWORKSHEETS

**Untuk soal nomor 5 – 7, pasangkan peristiwa perubahan wujud dalam kehidupan sehari-hari di sebelah kiri dengan pilihan jawaban yang tepat di sebelah kanan!**

| Peristiwa Perubahan Wujud | No. | Jawaban |
|---|---|---|
| Es kering yang menyusut. | 5. | ..... |
| Lilin yang berubah menjadi minyak. | 6. | ..... |
| Uap air menjadi butiran salju. | 7. | ..... |

| Pilihan Jawaban | Sebutan Perubahan Wujud |
|---|---|
| a. | *sublimasi.* |
| b. | *deposisi.* |
| c. | *membeku.* |
| d. | *mencair.* |

8. Perhatikan gambar kumpulan hewan berikut.



Pernyataan yang tepat mengenai jumlah populasi dan individu pada kumpulan gambar hewan di atas adalah ...

a. *tiga populasi dan enam individu.*
b. *dua populasi dan satu individu.*
c. *enam populasi dan tiga individu.*
d. *dua populasi dan enam individu.*

9. Di antara pilihan jawaban di bawah ini, manakah hewan yang tidak bertulang belakang?

a. *Ikan Guppy.* b. *Elang.* c. *Kepiting.* d. *Domba.*

LIVEWORKSHEETS

10. Salah satu contoh tumbuhan tidak berbiji adalah ...
*a. pisang.* *b. pinus.* *c. paku.* *d. anggrek.*

11. Bagian tumbuhan berikut, yang tidak dimiliki oleh kelompok tumbuhan tidak berbiji adalah ...
*a. akar.*
*b. batang.*
*c. spora.*
*d. bunga.*

12. Dari pilihan jawaban di bawah ini, manakah yang merupakan bagian hidrosfer dalam bumi yang yang termasuk bagian dari kelompok kriosfer dan atmosfer?

| | Kriosfer | Atmosfer |
|---|---|---|
| a. | *Es Laut* | *Air Tanah* |
| b. | *Permafrost* | *Uap Air* |
| c. | *Sungai* | *Awan* |
| d. | *Awan* | *Tudung Es* |

**Untuk nomor 13 dan 14, perhatikan diagram pengelompokan makhluk hidup berikut.**

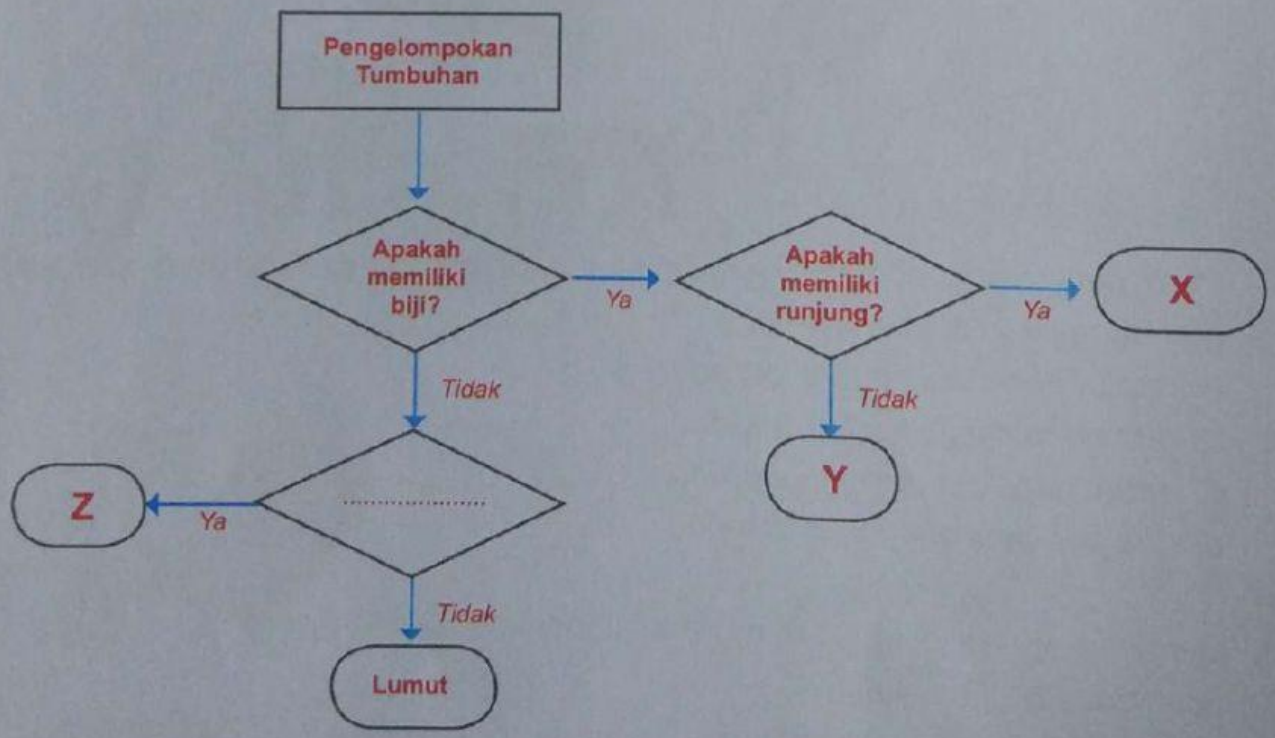


LIVEWORKSHEETS

13. Tumbuhan yang cocok untuk mengisi huruf X dan Y pada diagram di atas adalah ...

| | X | Y |
|---|---|---|
| a. | *Melinjo* | *Kangkung* |
| b. | *Mangga* | *Bambu* |
| c. | *Cemara* | *Paku* |
| d. | *Pinus* | *Bayam* |

14. Kalimat tanya yang cocok untuk mengisi titik-titik pada diagram di atas adalah?

| | Kalimat Tanya | Z |
|---|---|---|
| a. | *Apakah memilki spora?* | *Pakis* |
| b. | *Apakah memiilki bunga?* | *Paku Tanduk Rusa* |
| c. | *Apakah dapat dibedakan akar, batang dan daunnya?* | *Suplir* |
| d. | *Apakah tumbuh menempel pada tumbuhan lain?* | *Resam* |

15. Miranda mengamati hewan P, Q, R dan S. Selanjutnya ia mengidentifikasi ciri hewan tersebut dan memasukkan hasil pengamatannya ke dalam tabel berikut.

| Pertanyaan Identifikasi | P | Q | R | S |
|---|---|---|---|---|
| Apakah memiliki sistem rangka? | Ya | Tidak | Ya | Ya |
| Apakah tubuhnya ditutupi sisik? | Tidak | Tidak | Tidak | Ya |
| Apakah memiliki rangka luar? | Ya | Tidak | Tidak | Ya |

Berdasarkan ketiga pertanyaan identifikasi yang dilakukan Miranda, hewan yang memiliki tulang belakang adalah ...

a. *P dan Q.*
b. *R dan S.*
c. *Q dan R.*
d. *P dan S.*

LIVEWORKSHEETS