| | | | | | |
|---|---|---|---|---|---|
| الموضوع | الاستجابة في النبات | الهدف | دراسة أنواع الاستجابة في النباتات | الزمن | ثلاث دقائق |
| اسم الطالب (المجموعة) | | الاستراتيجية | | اكمال الفجوة | |

**** اكمل الجدول التالى بوضع الصور والعبارات التالية في مكانها الصحيح****



هي استجابة النباتات التي تسبب الحركة بغض النظر عن أتجاه المنبه





هو نمو النبات استجابة لمنبه خارجي

الانتحاء اللمسي

الانتحاء الضوئي

الانتحاء الأرضي

---

| استجابة الحركة | | | استجابة النمو (الانتحاء) |
|---|---|---|---|
| التعريف: | | | التعريف: |
| مثال ١ | الانتحاء | المنبه | مثال |
| | | الضوء | |
| مثال ٢ | | الجاذبية | |
| | | ميكانيكي | |

"R . Taher"

LIVEWORKSHEETS