ZATIKIAK KONPARATZEA

IKUSI BIDEO HAU. (AZKEN ZATIARI EZ EGIN KASURIK)

GOGORATU (Argi ez baduzue ikusten begiratu zuen liburuko 88. orrian)

Zatikiak konparatzea

Izendatzaile bera duten zatikiak

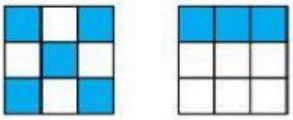

$\frac{5}{9} > \frac{3}{9}$

Bi zatikik izendatzaile bera baldin badute, handiena zenbakitzailerik handiena duen zatikia da.

$\frac{5}{9}$ handiago da $\frac{3}{9}$ baino

Zenbakitzaile bera duten zatikiak

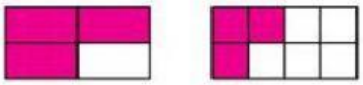

$\frac{3}{4} > \frac{3}{8}$

Bi zatikik zenbakitzaile bera baldin badute, handiena izendatzailerik txikiena duen zatikia da.

$\frac{3}{4}$ handiago da $\frac{3}{8}$ baino

Konparatu zatikiak unitatearekin

Zatikiak unitatearen parekoak, txikiagoak edo handiagoak izan daitezke.

1EN PAREKOAK

$\frac{9}{9} = 1$

Zenbakitzaile eta izendatzaile berdinak dituen zatikia unitatearen parekoa da.

1 BAINO TXIKIAGOAK

$\frac{7}{9} < 1$

Zenbakitzailea izendatzailea baino txikiagoa duen zatikia unitatea baino txikiagoa da.

1 BAINO HANDIAGOAK

$\frac{5}{4} > 1$

Zenbakitzailea izendatzailea baino handiagoa duen zatikia unitatea baino handiagoa da.

LIVEWORKSHEETS

1. ARIKETA: Kopiatu eta idatzi >, < edo = kasu bakoitzaren arabera.

a) $\frac{6}{9}$ ◯ $\frac{4}{9}$ c) $\frac{7}{11}$ ◯ $\frac{6}{11}$ e) $\frac{9}{5}$ ◯ $\frac{9}{6}$

b) $\frac{6}{10}$ ◯ $\frac{8}{10}$ d) $\frac{3}{7}$ ◯ $\frac{3}{5}$ f) $\frac{5}{9}$ ◯ $\frac{5}{6}$

2. ARIKETA: Idatzi bakoitzari dagokion zatikia eta gero konparatu zatikiak.

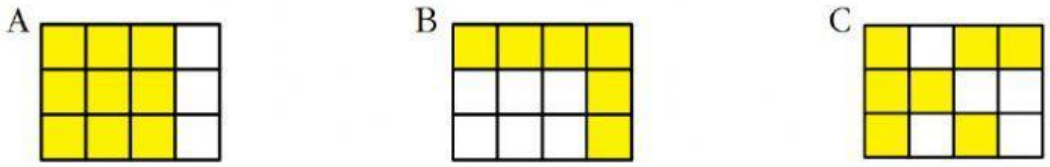

Zein hizki da handiena?

3. ARIKETA: Ordenatu txikitik handira zatiki multzo bakoitza.

a) $\frac{6}{9}, \frac{4}{9}, \frac{7}{9}, \frac{3}{9}, \frac{2}{9}$

b) $\frac{6}{5}, \frac{6}{3}, \frac{6}{9}, \frac{6}{2}, \frac{6}{6}$

a) < < < <

b) < < < <

LIVEWORKSHEETS

4. ARIKETA: Erreparatu zatikiei eta osatu taula (Begiratu hasierako taula)

$\frac{5}{5}$ $\frac{6}{7}$ $\frac{7}{9}$ $\frac{9}{9}$ $\frac{11}{8}$ $\frac{8}{5}$ $\frac{4}{3}$ $\frac{6}{6}$ $\frac{2}{4}$

1 BAINO HANDIAGOAK	1EN PAREKOAK EDO BERDINAK	1 BAINO TXIKIAGOAK

5. ARIKETA: (Begiratu hasierako taula)

Kristinak txokolate-tableta baten 3/9 jan du eta Ibanek tableta horren 3/6 jan du. Zeinek jan du gehien?

IBANEK **KRISTINAK**

6. ARIKETA: (Begiratu hasierako taula)

Karlosek poltsa bateko gozokien 5/8 jan du, eta Sergiok, 5/6 . Biotako zeinek jan du gozoki gehien?

KARLOSEK **SERGIOK**

LIVEWORKSHEETS

LIVEWORKSHEETS