LATIHAN 1 – SAINS TAHUN 4

1. Padankan penyataan berikut dengan istilah yang betul.

Memerhati	**Mengelas**	**Membuat inferens**	**Membuat hipotesis**
Berkomunikasi	**Meramalkan**	**Mengeksperimen**	**-**

a. Mengasingkan objek kepada kumpulan masing – masing berdasarkan ciri dan sifat sepunya.

.....

b. Mempersembahkan maklumat dengan cara lisan, rajah, jadual, graf, carta atau model.

.....

c. Menggunakan semua deria untuk mengumpul maklumat tentang sesuatu objek atau fenomena.

.....

d. Membuat pernyataan umum tentang hubungan antara pemboleh ubah yang difikirkan benar bagi menerangkan sesuatu peristiwa.

.....

e. Membuat kesimpulan awal yang logik, yang mungkin benar atau mungkin salah untuk menerangkan sesuatu pemerhatian.

.....

f. Merancang dan menjalankan eksperimen untuk menguji sesuatu hipotesis, mengumpul data, mentafsir data sehingga mendapat kesimpulan.

.....

g. Membuat jangkaan tentang sesuatu peristiwa berdasarkan pemerhatian dan pengalaman yang lalu atau data yang boleh dipercayai.

.....

2. Lihat gambar di bawah dan kelaskan mengikut ciri-ciri yang sama (sepunya).

Contoh:



Haiwan yang bertelur	Haiwan yang melahirkan anak
1) Ular 2) Ikan 3) Buaya	1) Gajah 2) Singa 3) Ikan paus

Haiwan berkaki empat	Haiwan tidak berkaki
1) Buaya 2) Singa 3) Gajah	1) Ular 2) Ikan 3) Ikan paus

3 padankan haiwan mengikut ciri yang betul





Haiwan berkaki	Haiwan tidak berkaki
Haiwan bercangkerang	**Haiwan berbulu**
Haiwan bersayap	**Haiwan bertelur**
Haiwan bernafas melalui peparu	**Haiwan bernafas melalui insang**
Haiwan yang makan daging	**Haiwan yang makan tumbuhan**
Haiwan liar	**Haiwan jinak**