Atividade teste

1- Selecione a cor do seu cabelo

2- Ligue as cores

3- Marque a alternativa correta

Qual é o nome do seu professor de matemática

A. Luis
B. Jonas
C. Oreste
D. Pedro
E.

4- Arraste o nome para os objetos

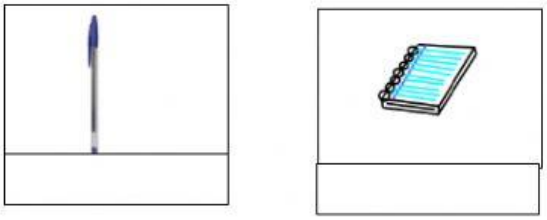

Caderno caneta

Avaliação diagnóstica 4º ano

Escola Antônia Batista de Lima e Silva

Professor : José Oreste

Questão 01 – (D1)

O desenho abaixo representa a sala de Pedro.

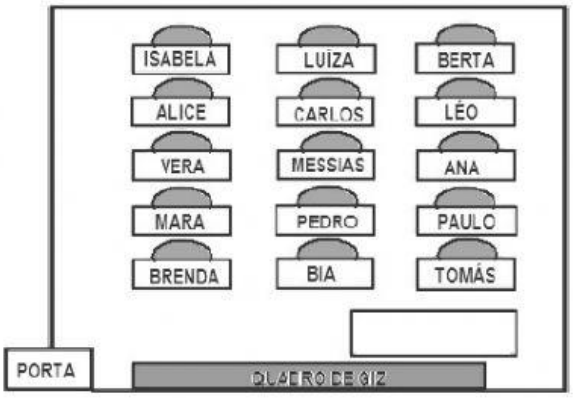

O aluno que está sentado na fila do meio na 3ª carteira do quadro para o fundo da sala é:

(A) Bia (B) Luíza (C) Carlos (D) Messias

Questão 02 – (D2)

Observe o mapa do centro da cidade onde Fabiano mora.



A rua paralela à "**Rua São Paulo**" é

(A) Rua São João (B) Rua São Bento (C) Rua Santana (D) Rua São Pedro

Questão 03 – (D3)

A figura abaixo mostra a planificação de uma figura espacial.

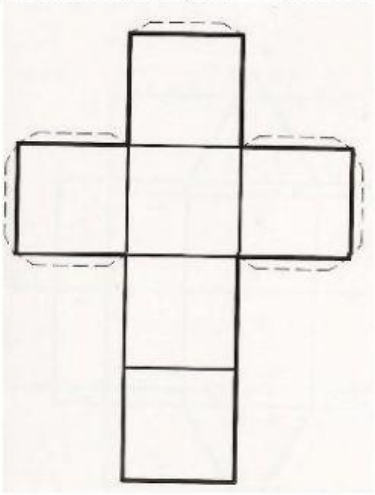

A figura é:

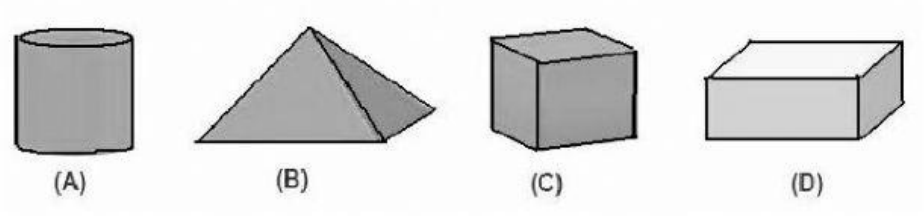

Questão 04 – (D4)

Alice e suas amigas desenharam algumas figuras geométricas.
Veja o que cada uma desenhou.

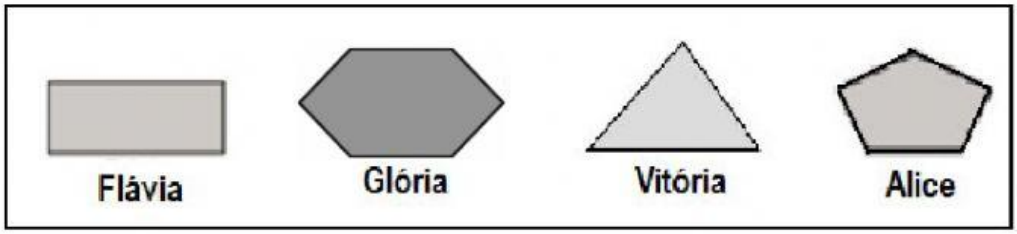

Quem fez o desenho de um retângulo foi

(A) Flávia (B) Glória (C) Vitória (D) Alice

Questão 05 – (D5)

Clara colou em seu caderno diferentes figuras geométricas. Veja abaixo o que ela colou.

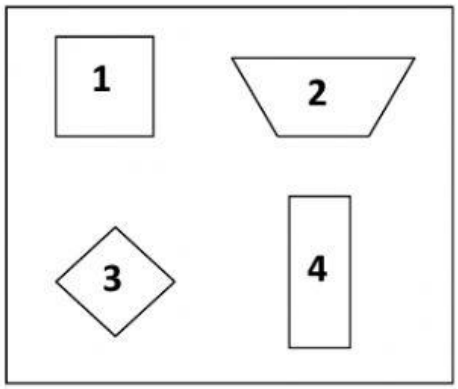

A figura que representa o retângulo é:

A) 1

B) 2

C) 3

D) 4

Questão 06 – (D6)

Rogério dá uma volta completa de bicicleta, diariamente, na pracinha perto de sua casa. Ele percorre aproximadamente

(A) 500 quilômetros

(B) 500 metros

(C) 500 centímetros

(D) 50 metros

Questão 07 – (D7)

Mamãe foi ao açougue e comprou 500 gramas de carne para bife e 500 gramas de carne moída. Mamãe comprou ao todo:

(A) 10 gramas de carne

(B) 100 gramas de carne

(C) 1 quilo de carne

(D) 10 quilos de carne

Questão 08 – (D8)

O consumo de frutas é muito importante numa dieta rica e equilibrada. Desde que plantamos uma árvore até a sua produção de frutos, cada espécie leva um tempo diferente, para dar frutos, como mostra a ilustração:

A fruta que leva 1 ano e 3 meses para frutificar é:

(A) mamão

(B) abacate

(C) melancia

(D) Kiwi

Questão 09 – (D9)

Observe com atenção as horas do relógio digital.
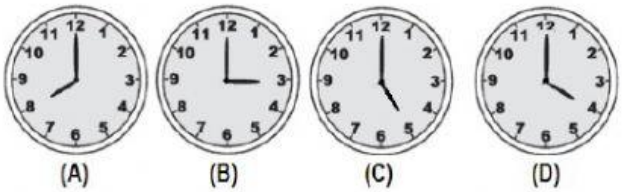
O relógio que marca a mesma hora do relógio digital é