Latihan Pratikal:

A) Tuliskan darjah (°) arah mata angin yang diukur dari titik rujukan X.

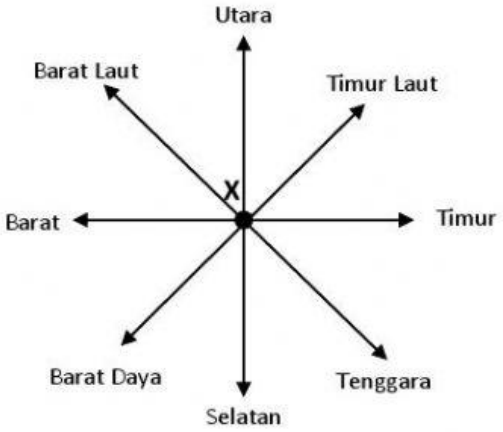

Arah	Sudut (°)
Utara	
Timur Laut	
Timur	
Tenggara	
Selatan	
Barat Daya	
Barat	
Barat Laut	

B) Ukurkan bearing sudutan berikut dan tuliskan jawapan pada ruangan kosong .

1)	2)	3)	4)
			
Bearing sudutan A dari B ialah: _____°	Bearing sudutan D dari C ialah: _____°	Bearing sudutan E dari F ialah: _____°	Bearing sudutan G dari H ialah: _____°

C) Kirakan bearing sudutan lokasi berdasarkan peta seperti di bawah.

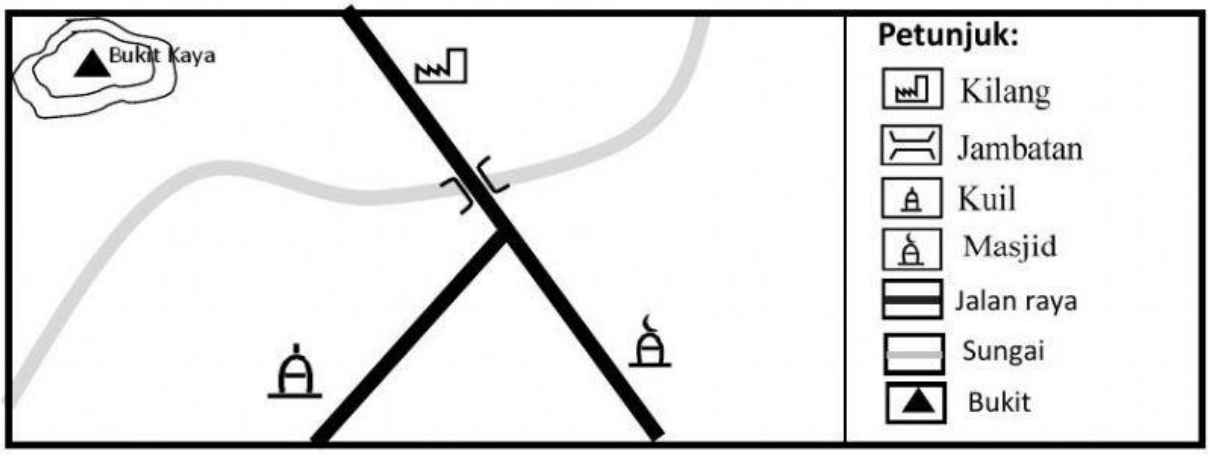

Soalan	Jawapan
1) Apakah bearing sudutan Kilang dari kuil?	
2) Apakah bearing sudutan kuil dari kilang ?	
3) Kirakan bearing sudutan masjid dari simpang jalan.	
4) Kirakan bearing sudutan jambatan dari kuil.	
5) Bearing sudutan Bukit Kaya ke kilang ialah:	