الكتل و الجبهات الهوائية

حدد نوع الجبهات الهوائية في النماذج التالية

1

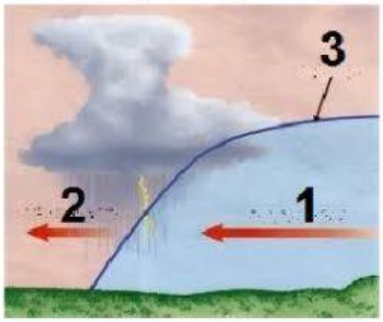

2

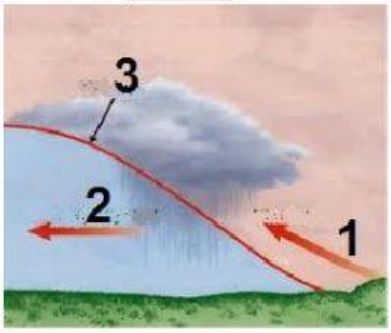

3

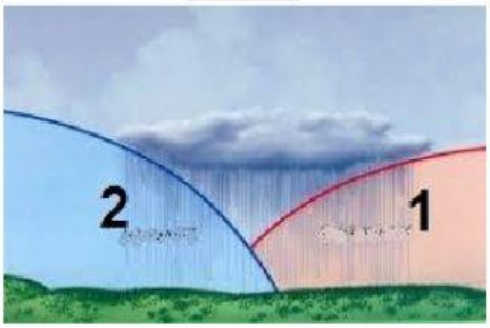

حدد الى ماذا يشير الرقم ١ و ٢ في الصور 2

1	
2	

الحد الفاصل	جبهة ثابتة	كتلة هوائية باردة	كتلة هوائية دافئة
جبهة دافئة	المطر	جبهة باردة	درجة الحرارة