خواص المادة

اقرأ، في كتابك، حول حالات المادة.

عنوّن كلّ رسم أدناه مستعملًا إحدى الكلمات الآتية: صُلبة، سائلة، غازية.

.18

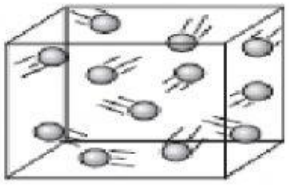

.....

.19

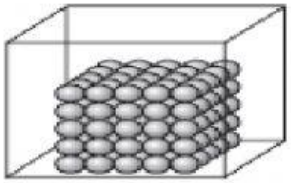

.....

.20

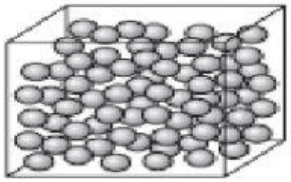

.....