1 **Sitúa en el mapa de la península ibérica los números de las cadenas montañosas.**

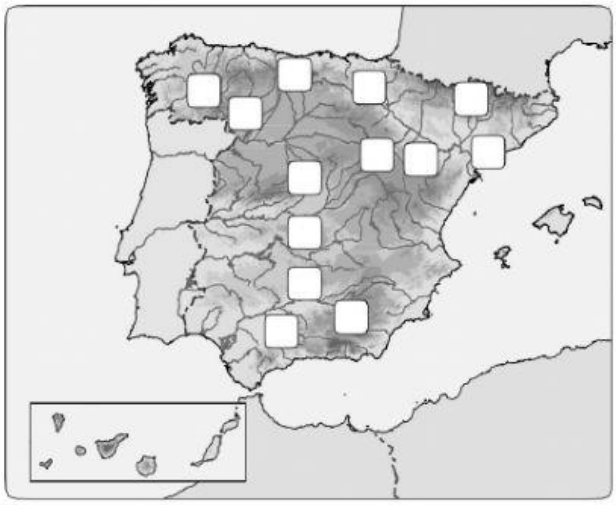

1. Macizo Galaico
2. Cordillera Cantábrica
3. Sistema Central
4. Montes de Toledo
5. Sistema Ibérico
6. Montes Vascos
7. Sistemas Béticos
8. Montes de León
9. Sierra Morena
10. Pirineos
11. Depresión del Ebro
12. Depresión del Guadalquivir
13. Sistema Costero-Catalán

2 **Une el nombre de la vertiente con la zona correspodiente .**

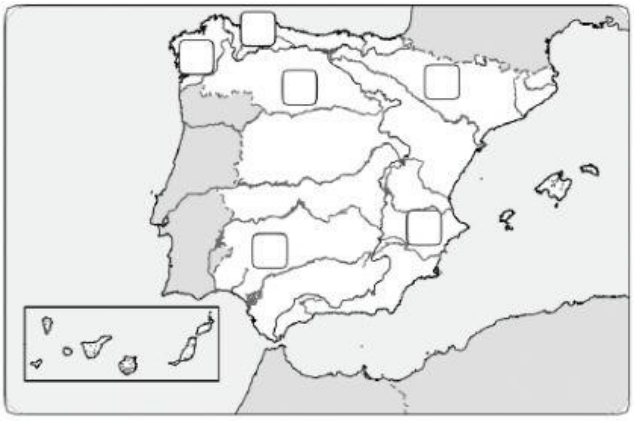

Vertientes de España

cantábrica
mediterránea
atlántica

Coloca los numeros de los siguientes rios en el mapa

1.- Júcar 2.- Miño 3.- Navia 4.- Ebro 5.- Duero 6.- Guadalquivir

3 **Identifica cada línea del globo terráqueo.**

4 **Observa el mapa y responde.**

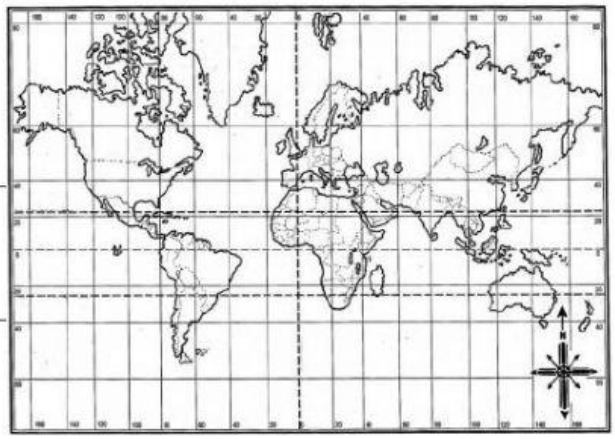

- ¿Qué representan las líneas verticales?

_____

- ¿Y las líneas horizontales?

_____