ESCUELA DE EDUCACIÓN BÁSICA
"EDUARDO KINGMAN

NOMBRE:_____ _____

LECCIÓN DE CIENCIAS

1. SELECIONA LA RESPUESTA CORRECTA. ¿A QUÉ ECLIPSE PERTENECE CADA IMAGEN? (1pto)

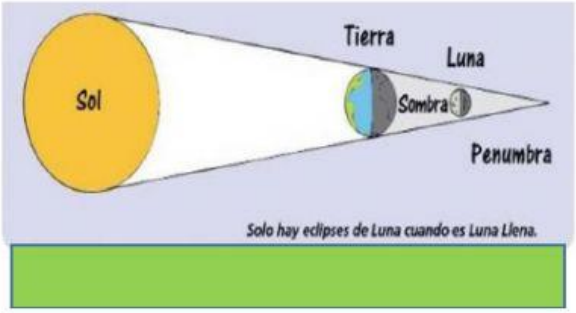

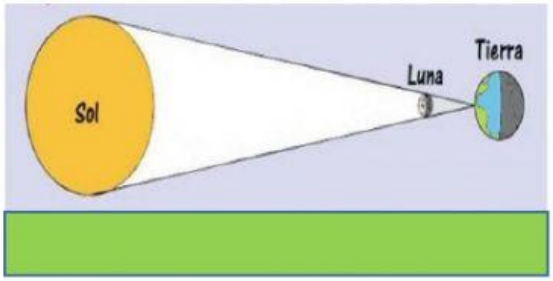

2. SELECCIONA LA RESPUESTA CORRECTA. CARACTERÍSTICAS DE LA ENERGÍA SOLAR. (2 ptos)

*Limpia y proviene del sol.

* Proviene de la Luna

*Inagotable

*Renovable

* No renovable

*Contamina la atmósfera

*No contamina la atmósfera

3. ARRASTRA EN EL LUGAR CORRESPONDIENTE LOS TIPOS DE ENERGÍA. (1 pto)

ZONA DE RADIACIÓN

ZONA DE CONVECCIÓN

FOTÓSFERA

NÚCLEO

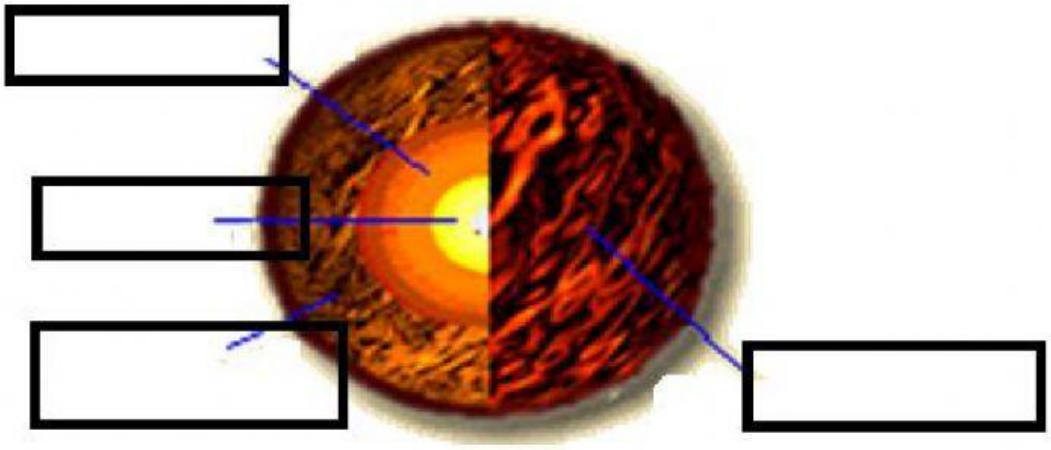

4. ESCRIBE LA LETRA INDICADA DE LOS DIFERENTES TIPOS DE ENERGÍA RENOBABLES. (1.5 ptos)

S	SOLAR
H	HIDRÁULICA
V	VIENTO

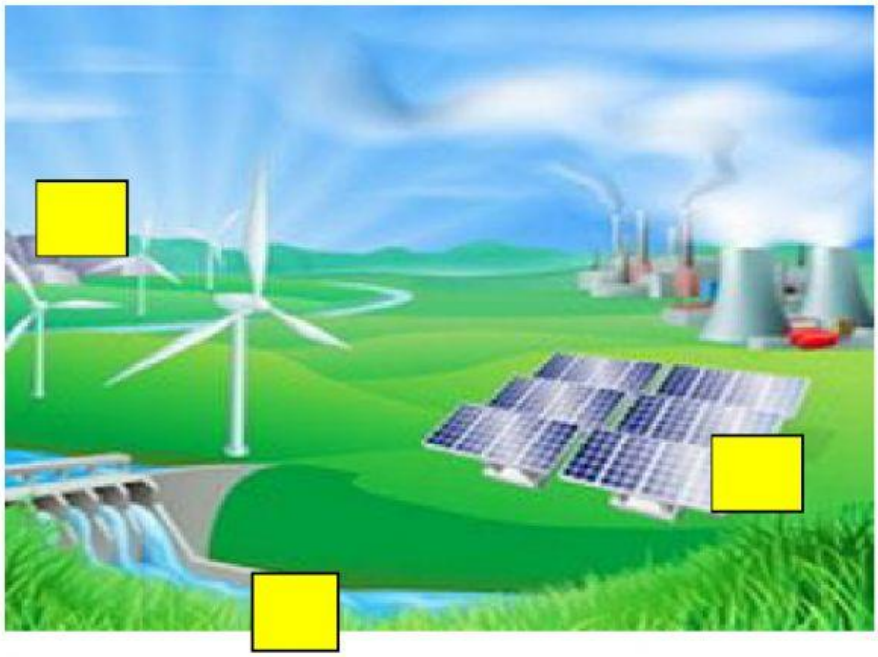

5. IDENTIFICA LOS ELEMENTOS RENOVABLES Y NO RENOVABLES. (2 ptos)

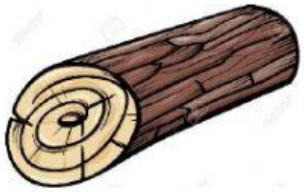

6. ESCRIBE V O F SEGÚN CORRESPONDA. (1.50 ptos)

- ✓ Las energías limpias son aquellas que no producen ningún tipo de contaminación.
- ✓ Las energías contaminantes contienen un conjunto de células solares que transforman la energía de la luz solar en energía eléctrica
- ✓ Las energías renovables emiten dióxido de carbono, que es perjudicial para el planeta.
- ✓ Las energías renovables se obtiene de fuentes consideradas inagotables por la inmensa cantidad de energía que poseen.
- ✓ Las energías no renovables son aquellas que se agota su uso

7. SELECCIONA LOS ELEMENTOS QUE FORMAN ENERGÍAS LIMPIAS Y CONTAMINANTES. (1 pto)

Limpias	Energía Solar Energía Hidráulica
	Petróleo Gas Natural

Contaminantes	Energía del viento Energía del agua
	Leña Carbón