TEMA 5
Subtema 3

PB 3

Nama :

Kelas :

No Absen:

Pengalamanku di Tempat Bermain

GATIET ELVI DANIEL BAUTISTA, S.Pd
SDN LEGOKDLON 2 KASREMANANGAWI

1. Perhatikan percakapan berikut !

Aqila : Sah, bolehkan aku pinjam pensilmu?

Nafisah : ... Qil, pensilku sedang dipinjam oleh Dafa.Kata yang tepat untuk melengkapi percakapan di atas adalah ....

A. Jangan

B. Tidak boleh

C. Maaf

2. Ketika teman meminta maaf seharusnya kita ....

A. memarahinya

B. memaafkannya

C. menertawakannya

3. Ketika memberi maaf kepada teman harus dengan perasaan yang ....

A. pura pura senang

B. penuh ikhlas

C. berat hati



4. Ketika kamu bermain, tidak sengaja menginjak kaki teman kamu.Sikap yang harus kamu lakukan adalah....

A. marah kepadanya

B. segera minta maaf

C. acuh tak acuh

5. Jika kita sudah meminta maaf atas kesalahan kita maka kita tidak boleh .... lagi

A. mengulangi

B. minta maaf

C. mengingatnya

5. Berikut yang bukan termasuk alat ukur panjang baku adalah....

A. depa

B. meteran

C. mistar



6. Bu Siti seorang penjahit.Alat ukur panjang yang cocok untuk Bu Siti adalah ....

A. mistar

B. meteran kain

C. penggaris

7. Perhatikan pernyataan di bawah ini.

Agus memiliki tinggi badan 128 cm

Budi memiliki tinggi badan 132 cm

Candra memiliki tinggi badan 130 cm.

Pernyataan di bawah ini yang benar adalah ....

A. Agus lebih tinggi dari Budi

B. Budi lebih tinggi dari Candra

C. Candra Lebih tinggi dari Budi



8. Sebuah pohon memiliki tinggi 350 cm. Jika diubah ke satuan meter menjadi ....

A. 0,35

B. 3,5

C. 35

9 Hasil dari 125 cm + 340 cm adalah .... cm

A. 365

B. 465

C. 475

10. Panjang tai rafia Beni 250 cm. Lalu dipotong 135 cm. Maka panjang tali rafia Beni menjadi ....

A. 115

B. 125

C. 135