BANGUN RUANG SISI LENGKUNG

(TABUNG, KERUCUT, DAN BOLA)

Kerjakan soal berikut dengan benar.

1. Bola

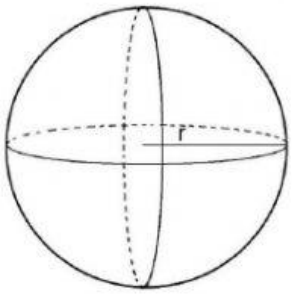

   a. Banyak sisinya ….. Buah
   b. Banyak rusuknya ada …. buah
   c. Banyak titik sudutnya ada ….

2. Tabung

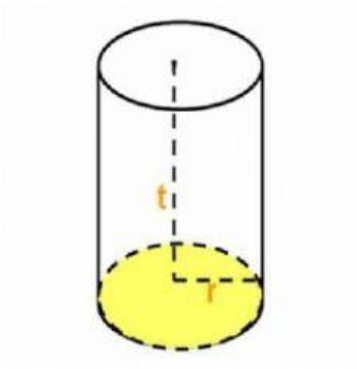

   a. Banyak sisinya ada … buah
   b. Banyak rusuknya ada ….
   c. Banyak titik sudutnya ada ….
   d. Sisi alasnya berbentuk ….

3. Kerucut

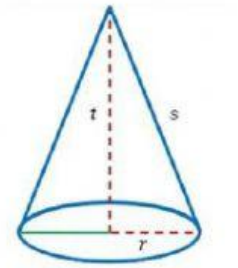

   a. Banyak sisinya ada ….
   b. Banyak rusuknya ada ….
   c. Banyak titik sudutnya ada ….