**NAMA: _____ KELAS :_____**

**TAJUK: KEMAHIRAN SAINTIFIK (MEGUKUR DAN MENGGUNAKAN NOMBOR)**

**TAHUN : 3**

**Sila tonton video ini sebelum menjawab soalan**



**NOTA RINGKAS:**

Contoh **alat piawai** adalah seperti:

**Pita pengukur** **pembaris**

**Unit Piawai: milimeter (mm), sentimeter (cm) dan meter (M)**

**Tujuan: untuk mengukur panjang**

**Unit Piawai: milligram (mg), gram (g), kilogram (KG)**

**Penimbang** **Tujuan: mengukur jisim**

**Unit Piawai: saat , minit, jam**

**Jam tangan** **jam randik** **jam dinding** **Tujuan: mengukur masa**

termometer digital

termometer makmal

**Unit Piawai:** celcius ( c)

**Tujuan: mengukur suhu**

Bikar

silinder penyukat

**Unit Piawai:** mililiter (ml), liter (L)

**Tujuan: mengukur isipadu cecair**

## Soalan:

**A) Namakan peralatan yang sesuai digunakan untuk mengukur objek dibawah:**

TERMOMETER

SILINDER PENYUKAT

JAM RANDIK

PENIMBANG

PEMBARIS

1

2

3



4

5

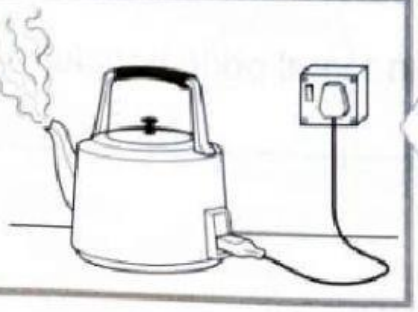

**B) Padankan unit piawai yang digunakan untuk alat dibawah ini:**

**Kilogram (kg)**

**Sentimeter (cm)**

**Celcius (C)**

**minit**

**Mililiter (ml)**

**c) Isikan tempat kosong di bawah dengan jawapan yang betul.**

1. **Termometer makmal digunakan untuk mengukur** _____
2. **Penimbang digital digunakan untuk mengukur** _____
3. **Jam randik digunakan untuk mengukur** _____
4. **Bikar digunakan untuk mengukur** _____
5. **Pita pengukur digunakan untuk mengukur** _____
6. **Adakah peralatan diatas membantu kita dalam mengukur (ya/tidak)**

   _____