NOMBRE:

1.-OBSERVA EL SIGUIENTE PLANO Y ESCRIBA LOS PARES ORDENADOS

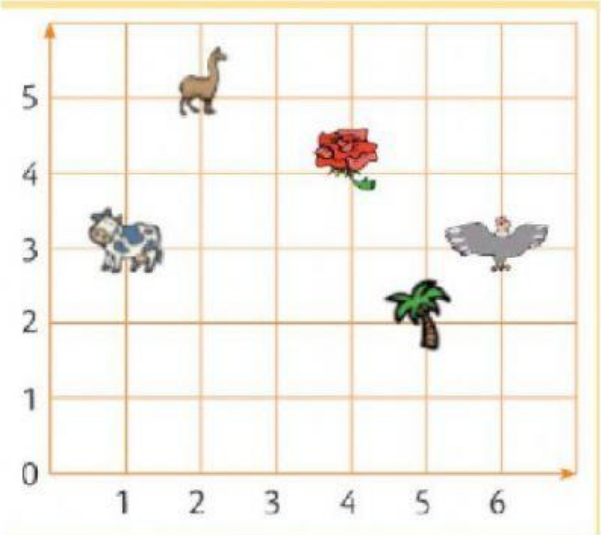

Vaca( ) , llama( ), rosa( ), palmera( ), cóndor( )

2.- OBSERVA LOS BLOQUES BASE 10 Y ESCRIBE DEBAJO LA CANTIDAD QUE REPRESENTA.

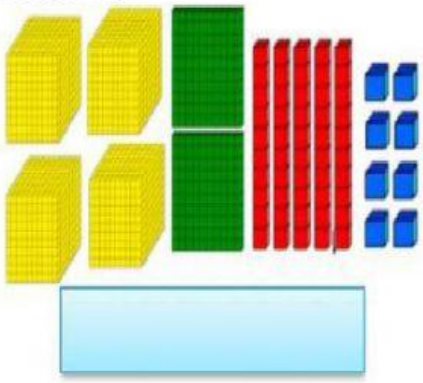

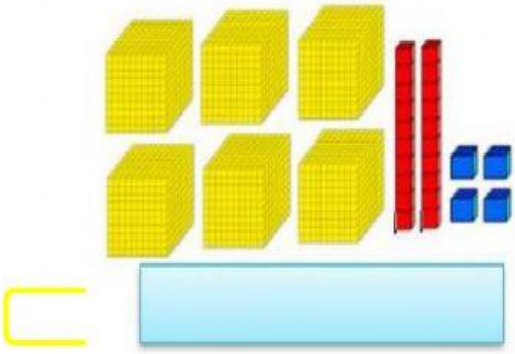

3.- CUENTA Y COMPLETA LA DESCOMPOSICIÓN DE CADA NÚMERO.

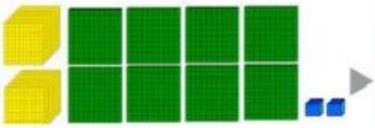

UM	C	D	U

= ____ UM + ____ C + ____ D

= ____ + ____ + ____



UM	C	D	U

= ____ UM + ____ C + ____ U

= ____ + ____ + ____

4.- RESUELVE LAS SIGUIENTES OPERACIONES CON REAGRUPACIÓN.

		5	8	5	9						8	4	0	7	
	+									−					
		1	2	9	5						5	8	9	5	

5.- ESCRIBE COMO SE LEE Y COMO SE ESCRIBE LOS NÚMEROS.

- Cinco mil cuatrocientos cincuenta y dos. . . .
- Tres mil quinientos ochenta. . .
- Nueve mil cuarenta y seis. . .

- 8428
- 6153
- 7489

6.- OBSERVA LAS SIGUIENTES SECUENCIAS DE NÚMEROS Y ESCRIBE.

10	20	30	
13	23	33	
90	80	70	

7.- ENCIERRA EL LITERAL EN LA SIGUIENTE SECUENCIA.

90 100 95 105 ◯

La regla de formación es: sumo _____ y resto _____.

45 40 47 42 ⬠

La regla de formación es: resto _____ y sumo _____.

8.-RESUELVE LAS SIGUIENTES OPERACIONES CON LA PROPIEDAD QUE SE SOLICITA.

Propiedad conmutativa

4 + 5 + 7 + 3= _____

_____

Propiedad asociativa

(9 + 11) + 52= _____

_____

_____

9.- *SELECCIONA* LA OPCIÓN CORRESPONDIENTE.

Ayuda a escoger a Nicolás la figura que no corresponde a un polígono.



☐ ☐ ☐ ☐ ☐

10.- SELECCIONA LA OPCIÓN CORRESPONDIENTE.
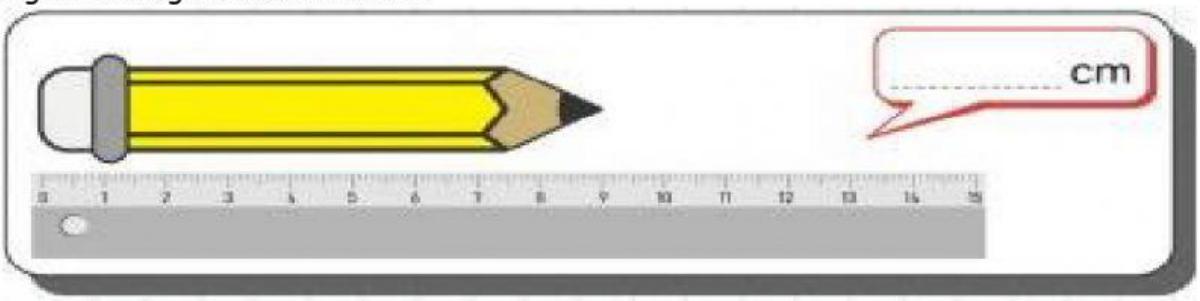
Según las imágenes cuánto miden: