שברים פשוטים
כיתה ד'

צפו בסרטון:

גרור כל שבר הכתוב בספרות לשמו במילים

רבע	שתי עשיריות	ארבע חמישיות	שלוש תשיעיות	שש שמיניות	חמש שתים-עשריות
$\frac{3}{9}$	$\frac{1}{4}$	$\frac{5}{12}$	$\frac{4}{5}$	$\frac{6}{8}$	$\frac{2}{10}$

מתחו קו בין הציור לשבר המתאר את החלק הצבוע בתכלת

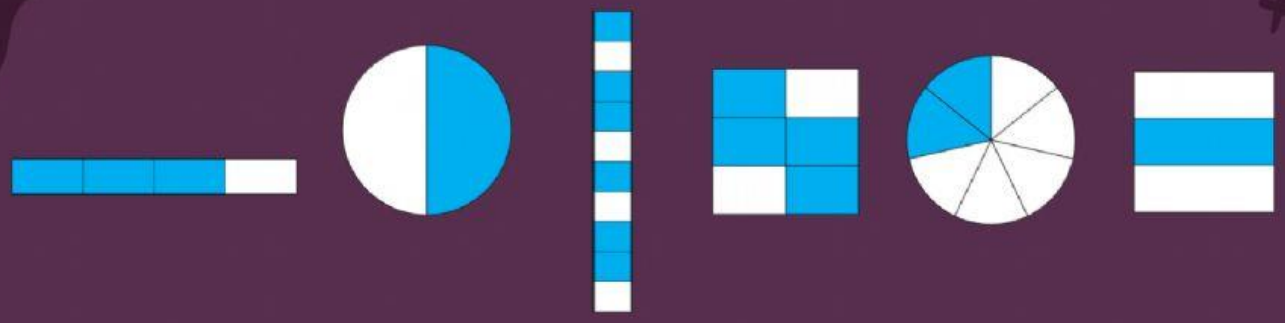

$\frac{4}{6}$ שלושה רבעים

שליש

$\frac{1}{2}$ שתי שביעיות

$\frac{6}{10}$

השלימו את הטבלה ע"פ הדוגמה:

		שבר המתאים לחלק הירוק	שבר המתאים לחלק הלבן	השלם
דוגמא		$\frac{2}{5}$	$\frac{3}{5}$	$\frac{5}{5}$
א		$\frac{\square}{\square}$	$\frac{\square}{\square}$	$\frac{\square}{\square}$
ב		$\frac{\square}{\square}$	$\frac{\square}{\square}$	$\frac{\square}{\square}$
ג		$\frac{\square}{\square}$	$\frac{\square}{\square}$	$\frac{\square}{\square}$

מה משותף לכל השרטוטים?

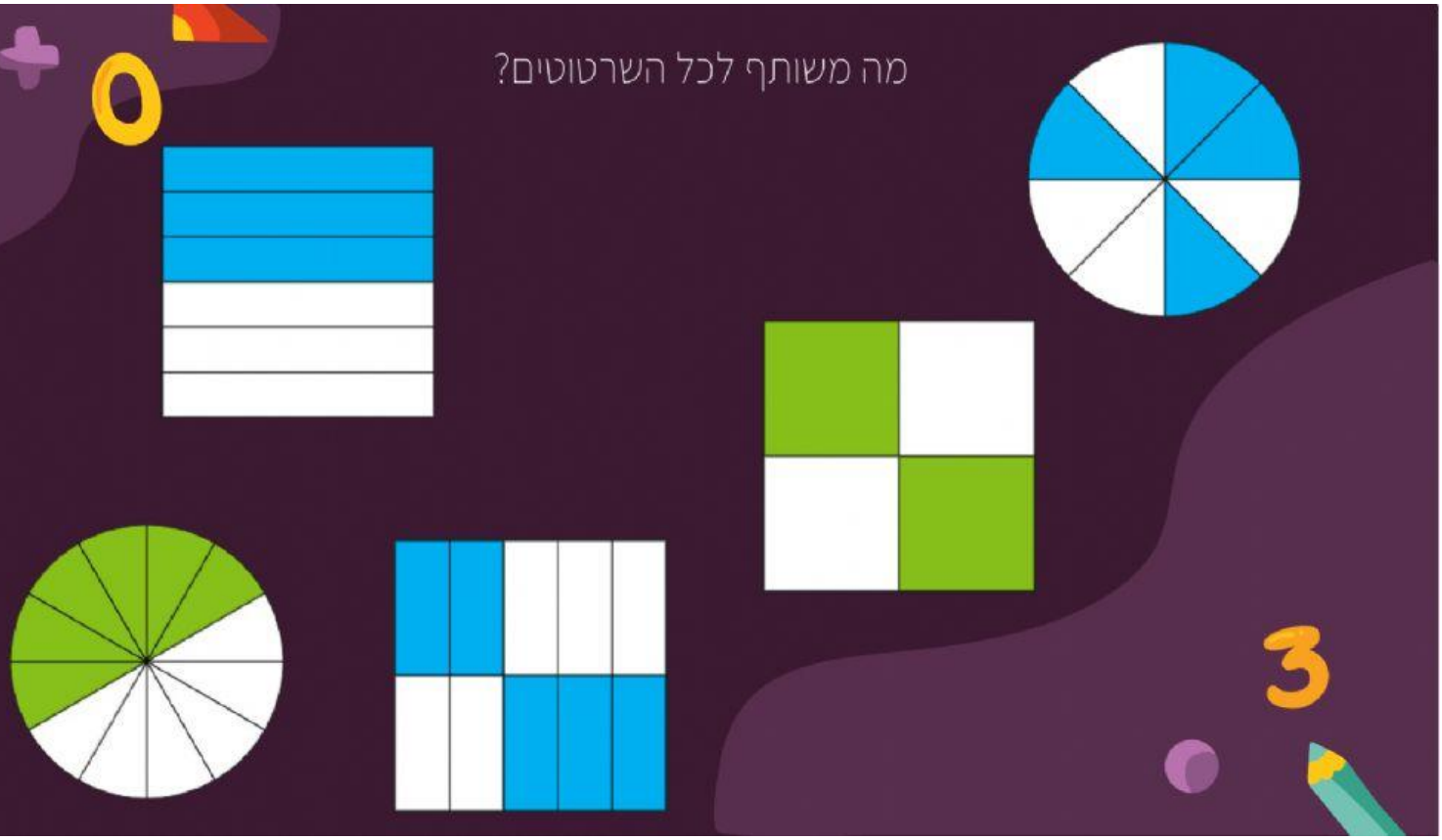

לחצו על כל השרטוטים המייצגים את השבר רבע:

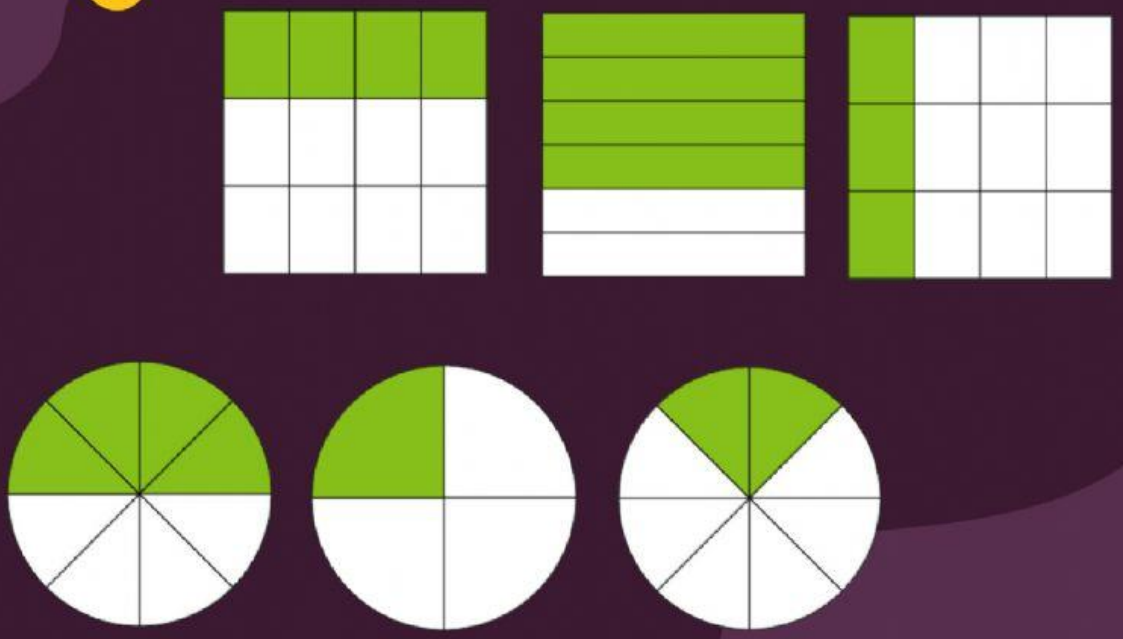

סיימתם את המשימה,

כל הכבוד!

אם תרצו,

תוכלו לענות על חידון בנושא.