المملكة العربية السعودية
وزارة التعليم
شركة أجيالنا التعليمية
إدارة التخطيط والتطوير والإشراف التربوي

وزارة التعليم
Ministry of Education

ورقة عمل

مدارس الفرسان الأهلية
Al Forsan National Schools

اسم الطالب		الفصل		الدرس	متوازي الاضلاع

اختر الإجابة الصحيحة :

1	الشكل المقابل متوازي اضلاع اوجد $m\angle S$ 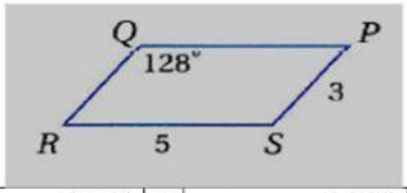							
	أ	28°	ب	52°	ج	128°	د	180°
2	الشكل المقابل متوازي اضلاع اوجد طول QP 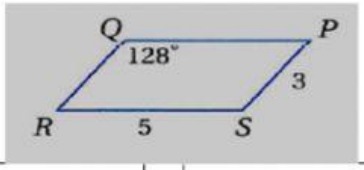							
	أ	28°	ب	5	ج	3	د	8
3	الشكل المقابل متوازي اضلاع اوجد قيمة X 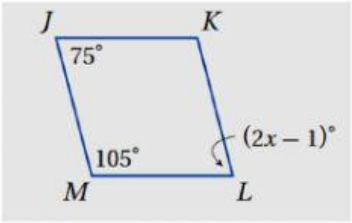							
	أ	28°	ب	52°	ج	128°	د	180°

اذا كان الشكل المقابل متوازي الاضلاع اوجد مايلي :

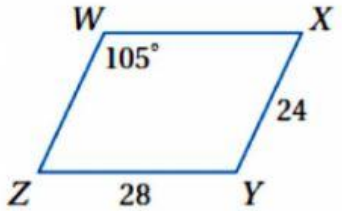

WX = ... **WZ=....**

$m\angle Y = \cdots$ $m\angle Z = \cdots$

اوجد قيمتي X ,Y في الشكل متوازي الاضلاع المقابل

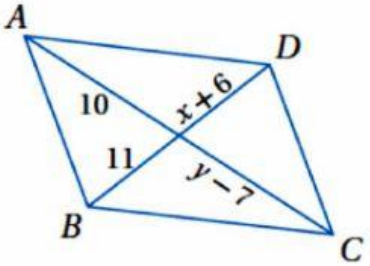

قيمة x **قيمة y**

معلم المادة	ناصف احمد	المشرف التربوي	ا/ محمد جاب الله