En una bolsa de caramelos hay solo caramelos de fresa y naranja, 23 caramelos en total.
De todos ellos, 15 son de fresa.
**¿Cuántos caramelos de naranja hay en la bolsa?**

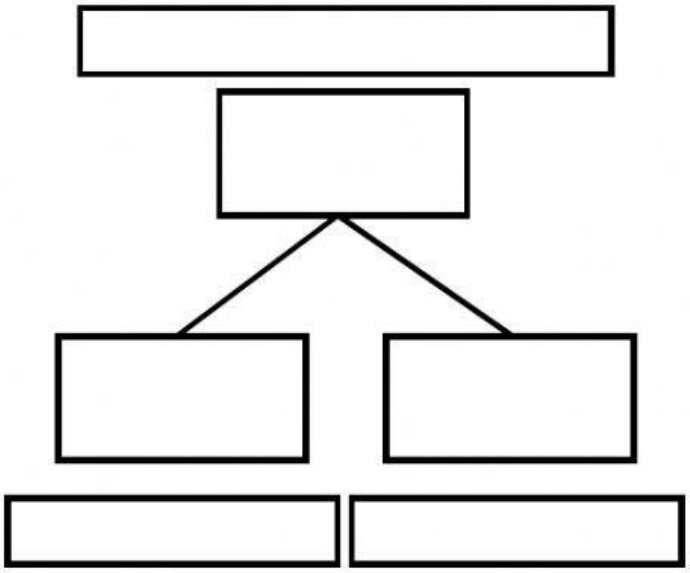

En una bolsa de caramelos hay 13 caramelos de fresa y 12 de naranja.
No hay más caramelos.
**¿Cuántos caramelos hay en la bolsa?**

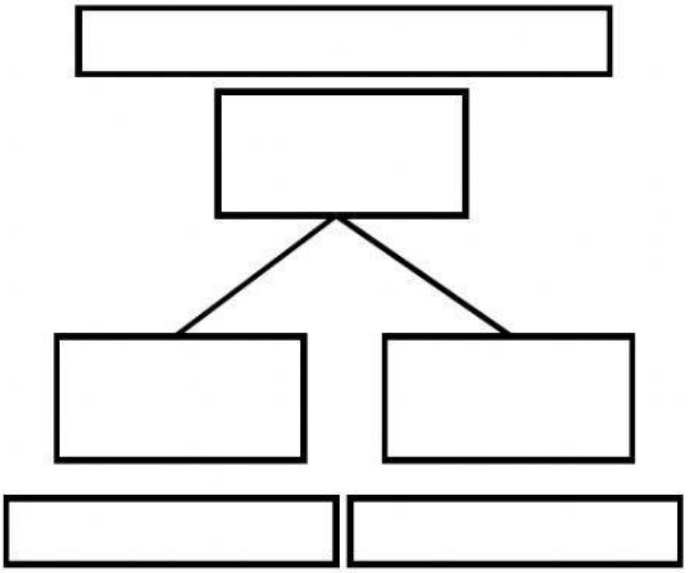
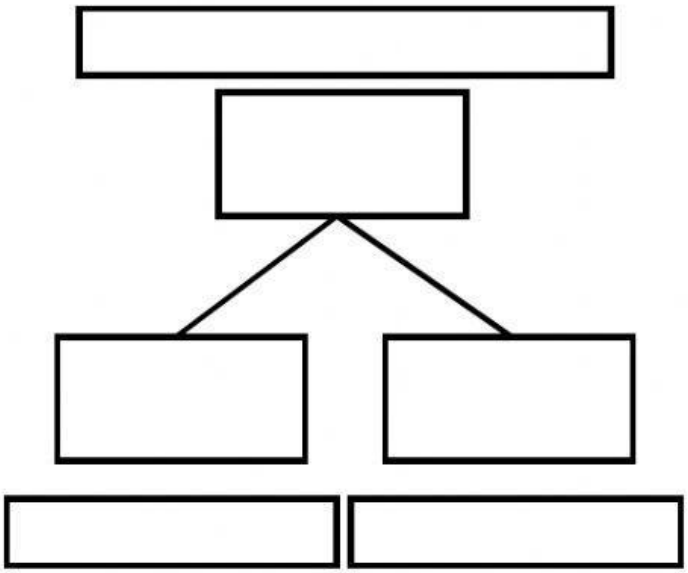
En una bolsa de caramelos hay solo caramelos de fresa y naranja, 26 caramelos en total.
De todos ellos, 11 son de naranja.
**¿Cuántos caramelos de fresa hay en la bolsa?**