# MÓN MATEMÀTIC

## 1. Omple els buits

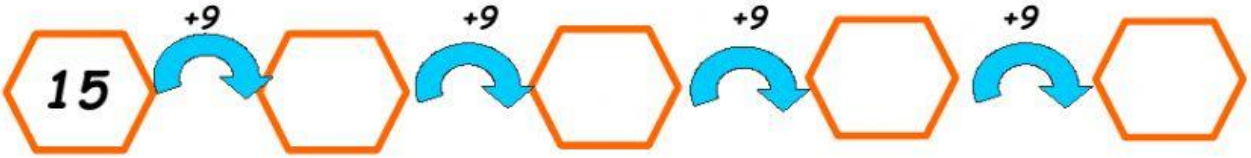


Recorda:

Un salt de +9 és el mateix que un salt de 10 cap endavant i 1 cap enrere.

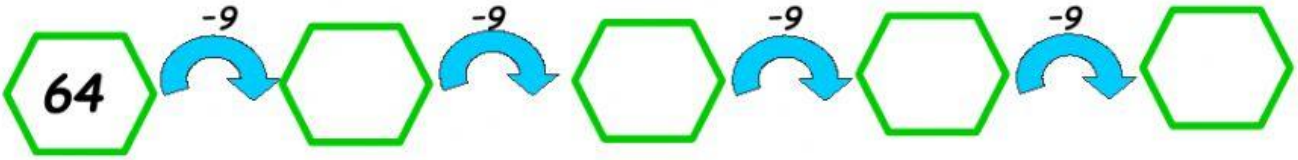


## 2. Indica si és V (veritat) o M (mentida)

- ➔El 35 és senar i les dues xifres sumen 8. ☐
- ➔El 66 és senar i té les dues xifres iguals. ☐
- ➔El 34 és parell i la 1a xifra és més petita que la 2a. ☐
- ➔El 70 és parell i més gros que el 60. ☐
- ➔L'11 és senar i més gros que 33. ☐
- ➔El 85 és senar i les dues xifres sumen 13. ☐
- ➔El 12 i el 28 són parells. ☐
- ➔El 34 és parell i el 87 és senar. ☐

**3. Si estàs al 45 i fas 3 salts de 4 unitats cap endavant, a quin nombre arribaràs?**

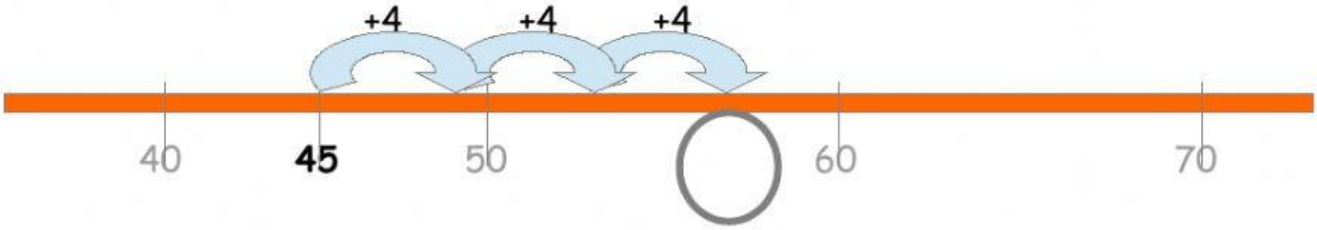


**4. Si estàs al 67 i fas 4 salts de 3 unitats cap enrere, a quin nombre arribaràs?**

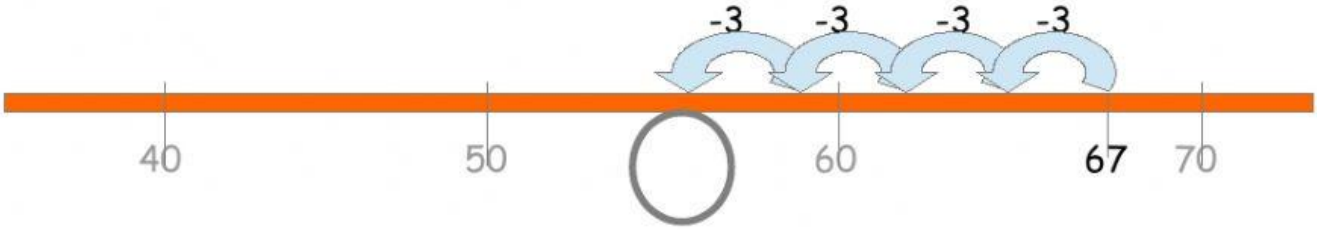


**5. Omple les caselles amb la seuma dels 2 nombres que hi ha damunt.**

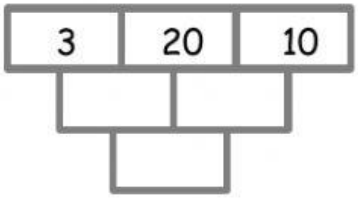


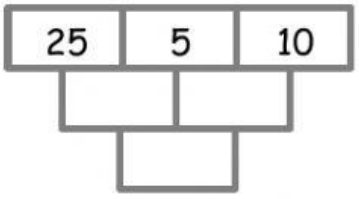


***6. Si els resultat de la resta 60-17 és 43. Dedudeix el resultat de les següents restes:***

| | | |
|---|---|---|
| **60 – 16 =** | **60 – 17 = 43** | **60 – 18 =** |

*Explica com ho has fet:*