LKPD 1. PELUANG SUATU KEJADIAN

TONTON KEMBALI VIDE DI ATAS UNTUK MENJAWAB SOAL BERIKUT

A. SOAL PILIHAN GANDA

KLIK PADA JAWABAN YANG ANDA ANGGAP BENAR!

1. Dua buah uang logam dilempar secara bersama-sama, banyaknya ruang sampel adalah...
   A. 2
   B. 4
   C. 6
   D. 8
   E. 10
2. Peluang muncul ketiganya gambar pada pelemparan 3 keping uang logam adalah...
   A. 1/8
   B. 3/8
   C. 3/4
   D. 7/8
   E. 1
3. Sebuah kotak berisi 5 bola merah, 4 bola biru, dan 3 bola kuning. Dari dalam kotak diambil 3 bola sekaligus secara acak, peluang terambil 2 bola merah dan 1 bola biru adalah …
   A. 1/10
   B. 5/36
   C. 1/6
   D. 2/11
   E. 4/11
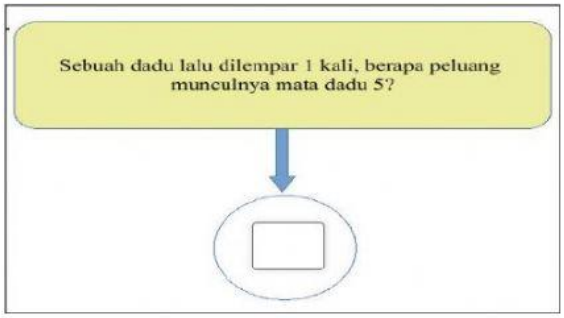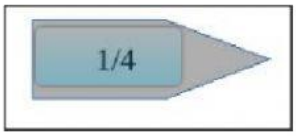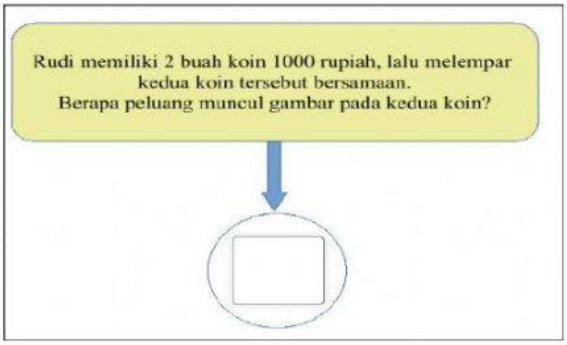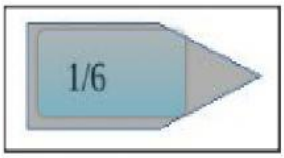
B. LETAKKAN UNSUR YANG TEPAT PADA KOLOM YANG KOSONG