Examen invertebrats part 2

1. Idica el nom de les parts assenyalades del següent animal:

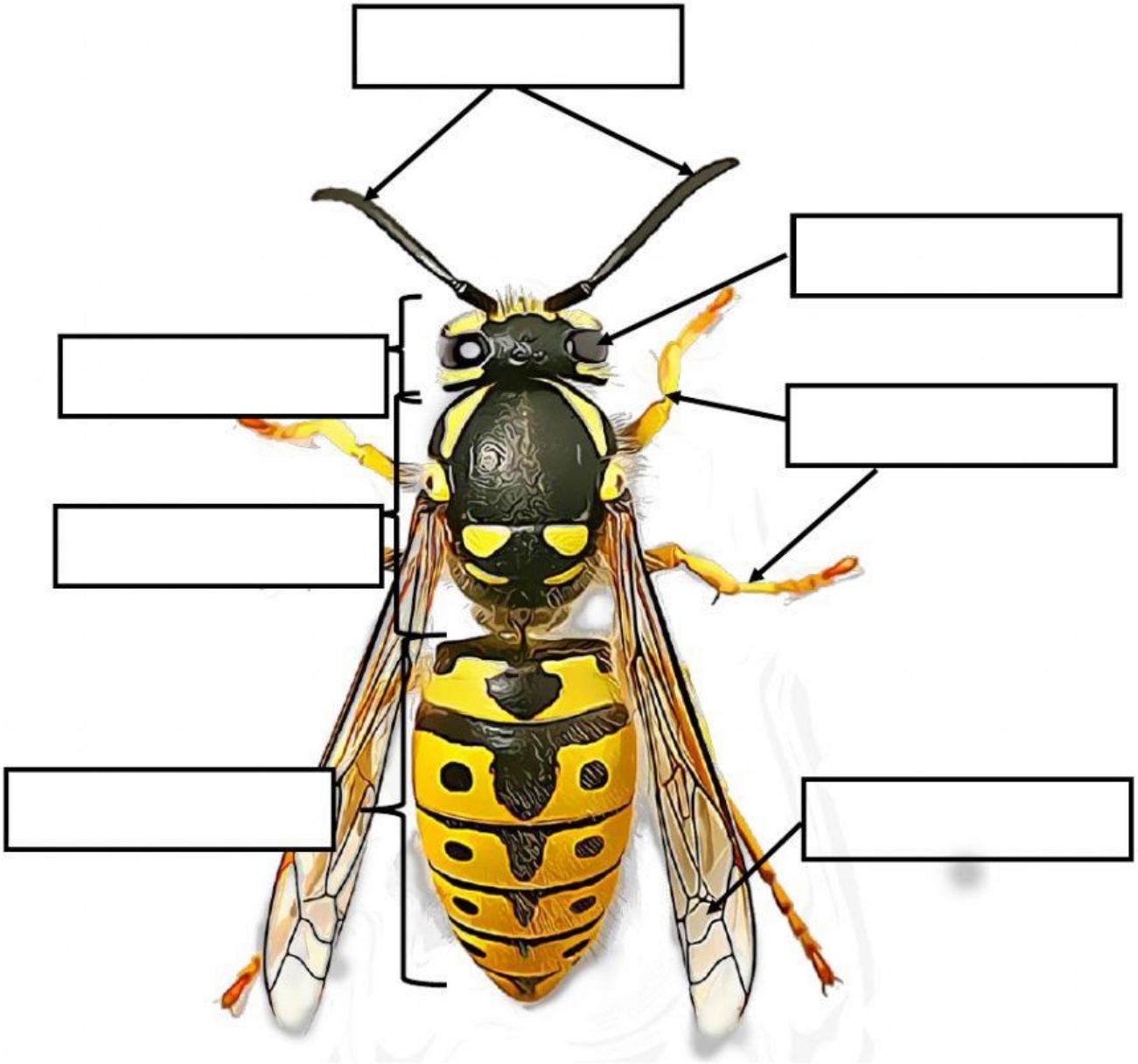

2. Indica el nom de les parts assenyalades del següent animal:



3. Relaciona:

a) Tenen 6 potes
b) Són terrestres
c) Cacen amb l'ajuda d'una trampa que construeixen.
d) Tenen metamorfosi
e) Respiren per tràquees
f) Tenen 8 potes
g) Són majoritàriament aquàtics
h) Tenen 10 potes
i) Respiren per brànquies

4. A quin procés fa referència aquest dibuix? _____

Indica com s'anomenen les diferents fases de l'animal