CIRI-CIRI DAN SIFAT BANGUN RUANG

No. Absen : Nama Lengkap: Kelas :

Isilah titik-titik berikut ini dengan jawaban yang tepat!

1.

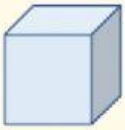

Memiliki rusuk yang
Memiliki titik sudut
Memiliki sisi berbentuk
Yang sama dan sebangun atau

2.

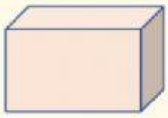

Memiliki rusuk
Memiliki titik sudut
Memiliki sisi. Sisi yang berhadapan
selalu sama dan sebangun atau

Kubus dan balok memiliki diagonal bidang,
diagonal ruang, dan bidang diagonal

3.

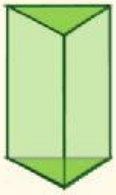

Memiliki rusuk
Memiliki titik sudut
Memiliki sisi
Alas dan tutup berbentuk
Sisi tegak berbentuk

4.

Memiliki rusuk
Memiliki titik sudut
Memiliki sisi
Alas dan tutup berbentuk
Selimut tabung berbentuk

5.

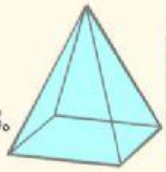

Memiliki rusuk
Memiliki titik sudut
Memiliki sisi
Alas berbentuk

6.

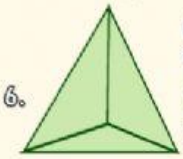

Memiliki rusuk
Memiliki titik sudut
Memiliki sisi
Alas berbentuk

7.

Memiliki rusuk
Memiliki titik sudut
Memiliki sisi
Alas berbentuk