LEMBAR KERJA PESERTA DIDIL
(LKPD) DIGITAL

MATA PELAJARAN TEMA 5 SUBTEMA 2
KELAS 1 SD

SD NEGERI 2 MOJAYAN

Identitas Siswa :

Nama :

No Absen :

Ayo Mencoba

Banyak Benda dan Lambang Bilangan

Edo, Udin, dan Beni senang bermain bersama. Mereka sering bermain kelereng. Mereka punya banyak kelereng.

Mereka ingin menghitung banyaknya.

Kelereng itu dikelompokkan.

Kemudian mereka menghitung bersama-sama.

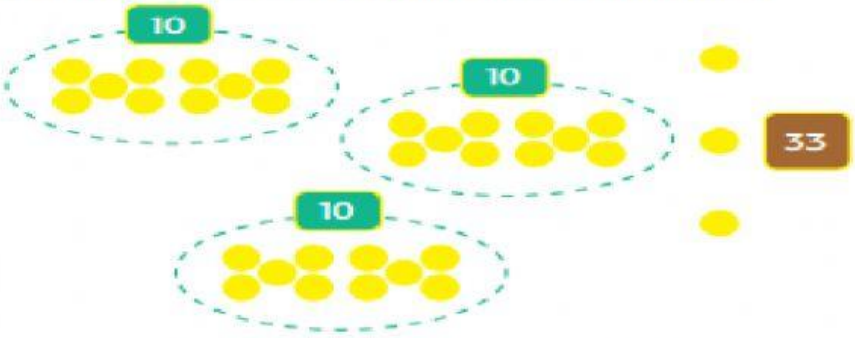

Ayo, kita lakukan hal yang sama seperti Udin dan teman-teman.

Gunakan benda-benda yang ada di sekitarmu.

Selengkapnya kamu bisa pelajari Link Berikut

Untuk lebih jelas kamu bisa liat vidio youtube berikut tentang penjumlahan banyak benda

Pasangkan banyak benda dengan lambang bilangannya.









40

35

32

38

TULISLAH LAMBANG BILANGANNYA.

Berilah tanda silang pada jawaban yang benar di bawah ini.

1. 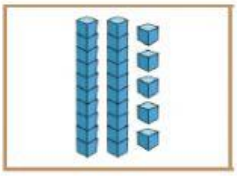

   Gambar diatas berjumlah ...

   a. 23

   b. 25

   c. 24

2. **38**

   Nama bilangan diatas adalah .....

   a. Tiga puluh enam

   b. Tiga puluh empat

   c. Tiga puluh delapan

3. "Dua puluh delapan" jika ditulis ....

   a. 28

   b. 32

   c. 36

Jika sudah selesai anak – anak bisa klik FINISH dan PILIH Via email agar nilai anak – anak bisa di cek oleh guru E – mail: srihandayani.sh125@gmail.com