C 选出适当的数目填在横线上。 1.1.2(v)

461 325　572 301　149 065　638 302　94 329　110 276

1. 45 729，_____，100 213，_____，119 500，135 275

2. 673 520，640 534，_____，620 677，_____，505 385

3. 482 916，_____，450 213，_____，130 570，90 222

练习 5　哪些是质数？

课本：页 8－9

填一填。 1.2.1 TP2 i-THINK

1

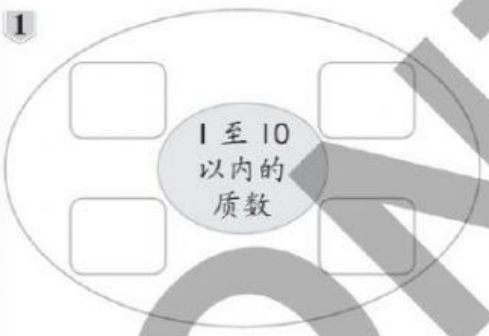

2

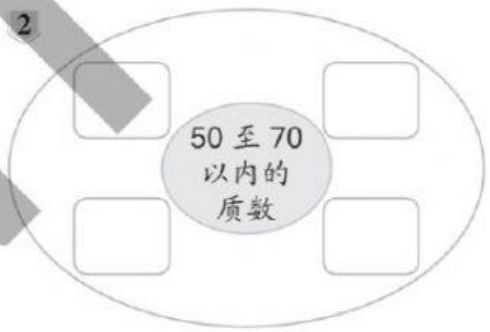

练习 6　估算

课本：页 10

估算果汁的产量。 1.3.1 TP3

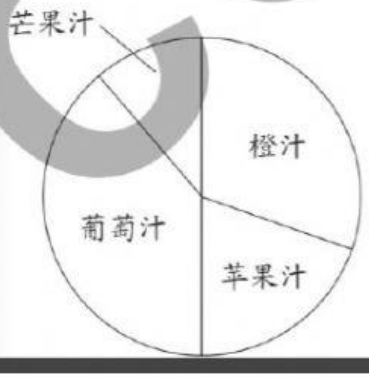

左图显示一家饮料厂的果汁产量。饮料厂共生产了 100 000 瓶果汁，其中的 30 000 瓶是橙汁。

1. 苹果汁：_____

2. 葡萄汁：_____

3. 芒果汁：_____

CONTOH