Los estados de la materia



Nombre del Estudiante

A. De acuerdo con la distribución de las partículas, clasifica cada ilustración según el estado de la materia que representa.

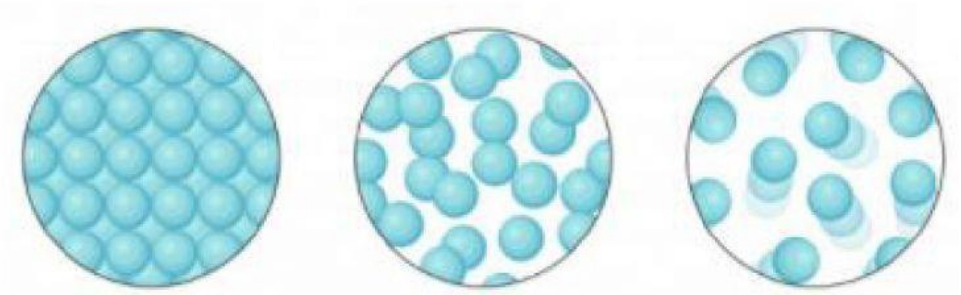

B. Lee cuidadosamente cada premisa. Indica si es verdadera o falsa.

V F

1. Los líquidos adaptan su forma al recipiente que los contiene.

2. La solidificación es el paso del estado sólido a líquido.

3. La condensación es el paso del estado gaseoso a líquido.

4. Los gases tienen forma y volumen definido.

5. La sublimación es el paso del estado sólido directamente al estado gaseoso.

C. Clasifica los materiales a continuación en sólido, líquido o gaseoso. Arrastra las palabras al lugar que corresponde.

bióxido de carbono	abanico	sirop de pancake
maní	oxígeno	nieve
alcohol etílico	jugo de china	humo

Líquidos	Sólidos	Gaseoso
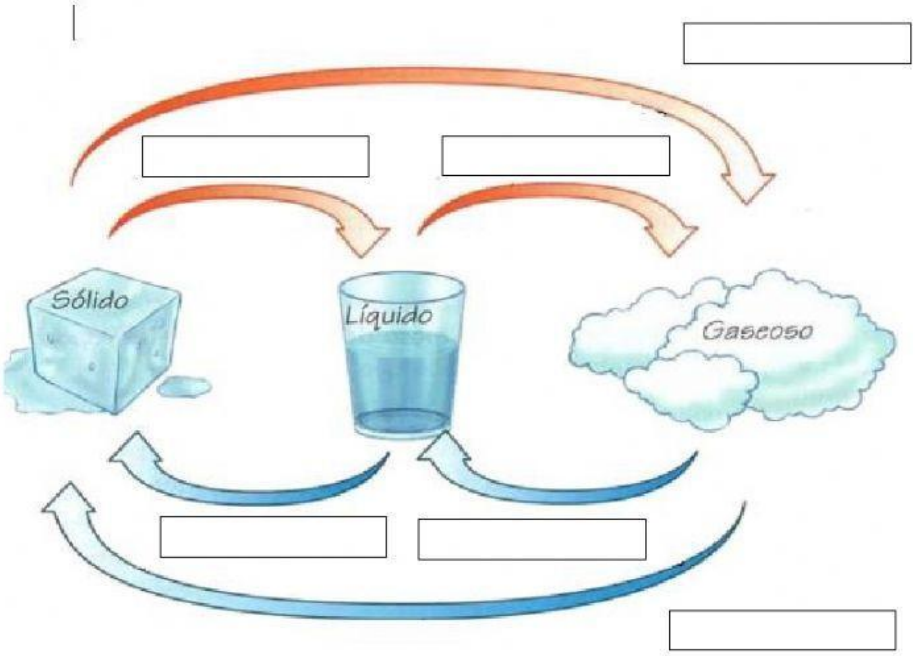
D. Utiliza el diagrama a continuación e identifica los cambios de estado de la materia.