Lembar Kerja Peserta Didik (LKPD)

Nama Peserta Didik :

No absen :

Mapel :

Petunjuk :

Bacalah materi dan kerjakan lembar kerja di bawah ini !

Jaring-jaring Bangun Ruang

1. Jaring-Jaring Kubus

jaring-jaring kubus adalah model atau pola dari sebuah **bangun ruang kubus** yang berbentuk **bangun** datar. Sisi-sisi pola ini tersambung dengan sisi-sisi lainnya. **Jaring-jaring kubus** terdiri dari enam **bangun** datar persegi atau bujur sangkar

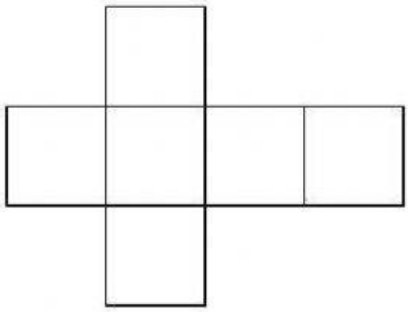

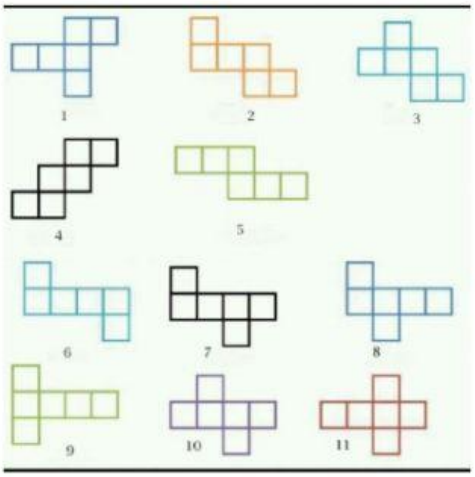

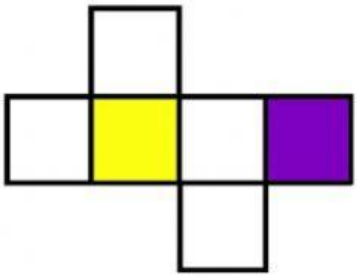

2. **Jaring-jaring Balok**

Jaring balok disusun atas bangun persegi panjang



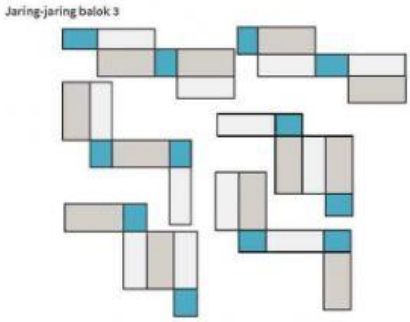

3. **Jaring-jaring Prisma**

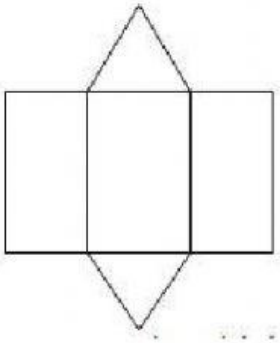

4. **Jaring- jaring limas**

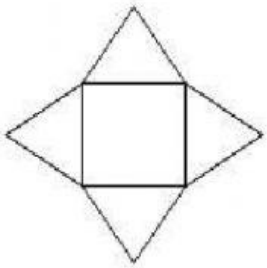

5. KERUCUT

Kita dapat memperoleh **jaring-jaring kerucut**, dengan cara membuka **kerucut** menurut garis pelukisnya. **Jaring-jaring kerucut** terdiri dari sebuah lingkaran dan sebuah juring lingkaran yang berjari-jari garis pelukis, lingkaran berasal dari alas **kerucut**, sedangkan juring lingkatan merupakan selimut **kerucut**.

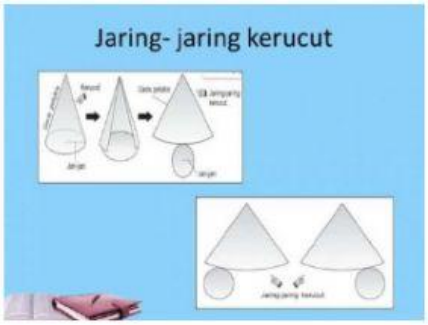

6. TABUNG

Tabung merupakan **bangun ruang** yang dibatasi oleh 3 buah bidang sisi yaitu sisi alas, sisi atas, dan sisi lengkung. **Jaring-jaring tabung** terdiri atas sisi alas dan sisi atas serta selimut **tabung** yang berbentuk persegi panjang

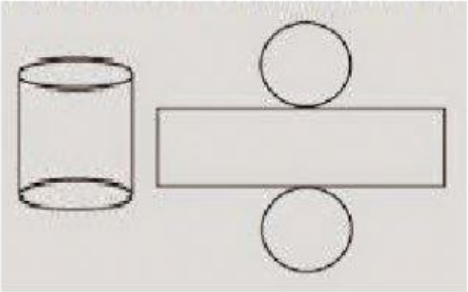

Agar kalian lebih paham silahkan simak vidio youtub berikut!

https://youtu.be/QQexRlltZ98

Setelah membaca dan menyimak vidio pembelajaran tadi silahkan kerjakan soal- soal di bawah ini dengan benar!

1. Jaring- jaring kubus dibentuk dari bangun datar...
2. 6 buah persegi panjang yang disusun dengan sedemikian rupa akan membentuk jaring-jaring...

Silahkan tarik garis dari lajur kanan ke lajur kiri sehingga menjadi jawaban yang benar !

1.

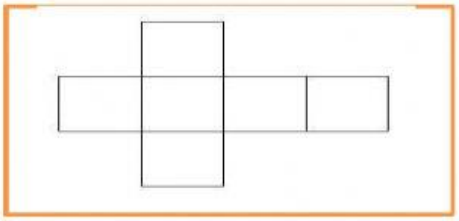

PRISMA SEGITIGA

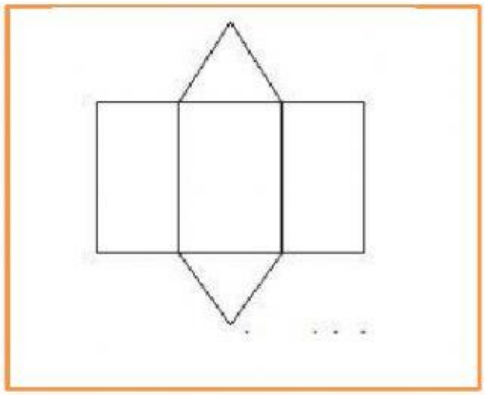

BALOK

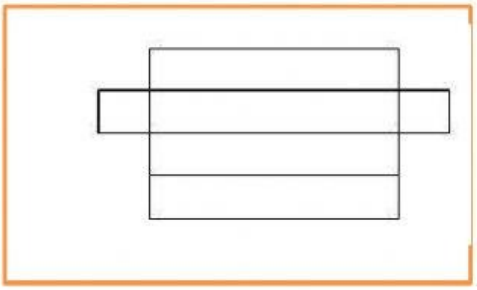

KUBUS

Jawablah soal- soal di bawah ini dengan benar !

1. Gambar di bawah merupakan jaring-jaring limas segi empat adalah...

a.

b.

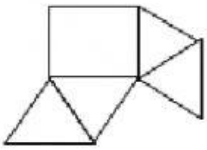

c.

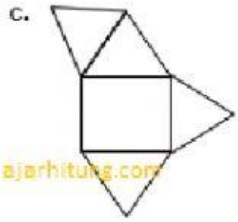

d.

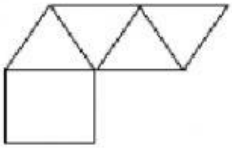

2. Gambar berikut yang merupakan jaring-jaring kubus adalah...

a.

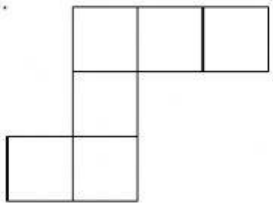

ajarhitung.com

b.

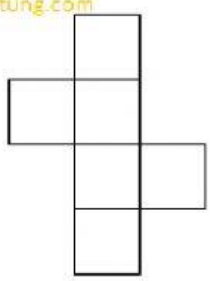

c.

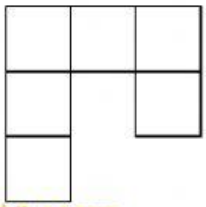

ajarhitung.com

d.



3. Bangun ruang yang terdiri dari 2 buah lingkaran dan 1 buah persegi panjang akan membentuk jaring- jaring bangun ruang...
   a. Kubus
   b. Kerucut
   c. Tabung
   d. Limas segi empat

4. Gambar berikut merupakan jaring-jaring bangun...

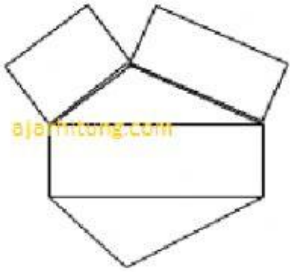

a. Limas segi empat
b. Kerucut
c. Tabung
d. Prisma segitiga