НАЗИВАЄМО КОМПОНЕНТИ ТА РЕЗУЛЬТАТ ДІЇ ВІДНІМАННЯ

- зменшуване
- від'ємник
- різниця

1 Кожне число першого рядка зменш на 2; кожне число другого рядка зменш на 1. **Запиши результати у рамочку.** (ЗРАЗОК : 1 3 7...)

10, 9, 8, 7, 6, 5, 4, 3, 2 ☐

1, 3, 5, 7, 9, 4, 10, 8, 6 ☐

2 Знайди значення різниць. Прочитай рівності на додавання.

6 + 1 =	7 − 2 =	9 − 2 =	6 + 2 =
8 + 2 =	4 + 0 =	5 + 2 =	7 − 7 =

3 У равлика було 5 повітряних кульок. Дві з них він не втримав. Поясни схему. Склади рівність і дізнайся, скільки кульок залишилося.

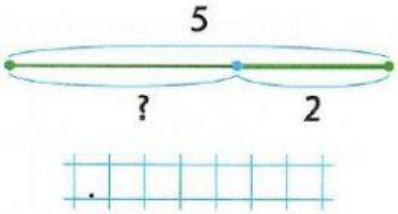



4 Запам'ятай, як називають числа при відніманні. Що цікаве в цих назвах можна помітити? Запам'ятай, як називають результат арифметичної дії віднімання.

Зменшуване	Вираз — різниця			Значення виразу
5	5	−	2	= 3
3 Різниця	Зменшуване		Від'ємник	Різниця
2 Від'ємник				

5 Знайди значення різниць. Склади відповідні рівності.

Зменшуване	Від'ємник	Значення різниці	Рівність
8	2	☐	8 − 2 = ☐
4	2	☐	☐ − ☐ = ☐
9	1	☐	☐ − ☐ = ☐

Випиши зменшуване, потім від'ємник. Обчисли вирази.

7+ 2=	9− 1=	6− 2=
4− 2=	8+ 2=	10− 1=
7− 1=	10− 2=	3+ 1=



Випиши зменшуване: _____

Випиши від'ємник: _____

7 Над лататтям кружляли 10 метеликів. Із них 7 жовтих, решта — сині. Який відрізок на схемі позначає кількість синіх метеликів? Добери відповідний вираз. Розмалюй метеликів.

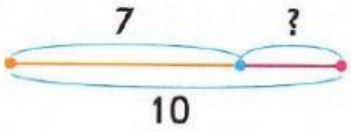

10+7 10−7 7+10



8 Склади рівність, щоб знайти невідомий доданок.

2+ . = 9 . - =	1+ . = 5 . - =
1+ . = 8 . - =	. + 2= 6 . - =
. + 2=4 . - =	2+ . = 7 . - =

9 Добери рівність до кожного малюнка. З'єднай стрілочкою.

4-3=1

4+2=6