VOLUMENES

1. Halla el volumen de cada uno de los cuerpos geométricos

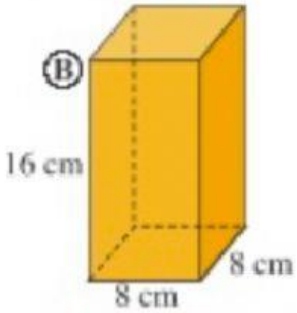

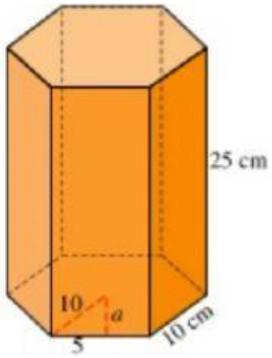

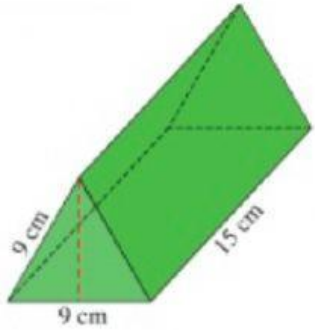

2. Las dimensiones de una caja de bombones son de 12.5 cm de largo, 6.3 cm de ancho y 6 cm de alto. ¿Cúal es el volumen de la caja de bombones?

3. La pirámide de Teotihuacan mide 55.3 m de lado y de altura 75 m de altura. ¿Cúal es le volumen de la pirámide?