13. Tuliskan cara membaca pecahan $\frac{1}{6}$!
Jawab: .....

Perhatikan gambar berikut untuk menjawab soal nomor 14 dan 15!



14. Berapa nilai pecahan yang tidak diarsir?
Jawab: .....
15. Berapa nilai pecahan yang diarsir?
Jawab: .....

Evaluasi Subtema 1

A. Berilah tanda silang (x) pada huruf a, b, c, atau d di depan jawaban yang paling benar!

PPKn (KD 3.4, dan 4.4)

1. Ada siswa baru di kelas Reihan. Namanya Aldi. Ia berasal dari daerah Indonesia timur. Sikap yang benar adalah ....
   a. menjauhi
   b. meminta oleh-oleh
   c. berteman
   d. tidak peduli
2. Makanan khas dari Sumatra Barat yang terkenal adalah ....
   a. tiwul c. sego tewel
   b. ketoprak d. rendang
3. Temanmu membawakan makanan khas daerahnya, tetapi kamu kurang menyukainya.
   Sikap yang harus kamu lakukan adalah .... **(HOTS)**
   a. menolak karena tidak suka
   b. membuang ke tempat sampah
   c. mengejek karena terlihat aneh
   d. menerima, lalu memberikannya kepada keluarga di rumah
4. Perhatikan kegiatan di bawah ini!
   (1) Makan
   (2) Belajar kelompok
   (3) Bermain bersama
   Kegiatan yang mencerminkan sikap bersatu ditunjukkan nomor .... **(HOTS)**
   a. (1)
   b. (1) dan (2)
   c. (1) dan (3)
   d. (2) dan (3)
5. Contoh sikap menjaga persatuan di lingkungan masyarakat adalah ....
   a. ikut beribadah dengan tetangga yang berbeda agama
   b. mengikuti kerja bakti jika dipaksa
   c. membantu tetangga yang mengalami musibah
   d. menolong tetangga dengan meminta imbalan
6. Sikap bersatu dalam keberagaman harus diterapkan di ....
   a. rumah
   b. sekolah
   c. lingkungan masyarakat
   d. rumah, sekolah, lingkungan, dan masyarakat

Bahasa Indonesia (KD 3.3 dan 4.3)

7. Saat cuaca panas lebih baik kita memakai baju ....
   a. tipis dan berat
   b. tipis dan menyerap keringat
   c. tebal dan berbulu
   d. tebal dan halus
8. Kumpulan uap air di langit disebut ....
   a. pelangi
   b. udara
   c. awan
   d. angin
9. Saat cuaca mendung sebaiknya ....
   a. banyak makan
   b. membawa jas hujan atau payung
   c. memakai topi
   d. minum es

10. Pakaian akan lebih cepat kering jika cuaca ....
   a. panas
   b. berawan
   c. mendung
   d. hujan
11. Berikut yang merupakan ciri-ciri cuaca cerah adalah ....
   a. terdapat awan hitam
   b. badai dan petir
   c. berkeringat
   d. udara terasa hangat
12. Ketika di langit terdapat kumpulan awan yang banyak dan tebal, maka kemungkinan akan terjadi .... **(HOTS)**
   a. hujan
   b. panas
   c. angin
   d. pelangi

Matematika (KD 3.4 dan 4.4)

13. Penulisan pecahan setengah adalah ....
   a. $\frac{1}{5}$
   b. $\frac{1}{3}$
   c. 0,5
   d. $\frac{1}{4}$
14. Perhatikan gambar berikut!



   Bagian yang diarsir bernilai ....
   a. $\frac{3}{6}$
   b. $\frac{1}{2}$
   c. $\frac{3}{8}$
   d. $\frac{2}{8}$
15. Perhatikan gambar berikut!



   Bagian yang diarsir bernilai ....
   a. $\frac{7}{8}$
   b. $\frac{1}{4}$
   c. $\frac{2}{4}$
   d. $\frac{1}{6}$
16. Pecahan $\frac{1}{3}$ dibaca ....
   a. satu per tiga
   b. tiga per satu
   c. tiga dibagi satu
   d. satu tiga
17. Pecahan $\frac{3}{8}$ dibaca ....
   a. satu per enam
   b. enam per lima
   c. lima per enam
   d. satu per lima
18. Perhatikan nilai pecahan-pecahan di bawah ini!

   (1) $\frac{2}{8}$ (2) $\frac{3}{0}$ (3) $\frac{7}{8}$

   Pecahan yang nilainya kurang dari 1 ditunjukkan nomor .... **(HOTS)**
   a. (2) saja
   b. (1) dan (2)
   c. (1) dan (3)
   d. (2) dan (3)

SBdP (KD 3.2 dan 4.2)

19. Perhatikan gambar dibawah ini!

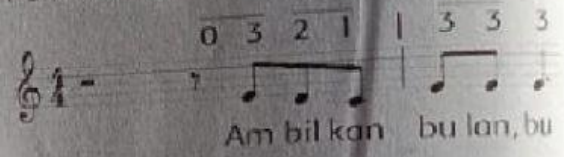

   Pada potongan lagu di atas dinyanyikan dengan tempo .... **(HOTS)**
   a. lambat
   b. cepat
   c. sedang
   d. lambat terus sedang
20. Supaya dapat bernyanyi dengan indah, kita harus ....
   a. bergerak dengan lincah
   b. diiringi musik yang bagus
   c. menggunakan nada yang tepat
   d. menggunakan pakaian yang bagus
21. Berikut lagu yang berhubungan dengan cuaca adalah ....
   a. Desaku
   b. Tik Tik Bunyi Hujan
   c. Memandang Alam
   d. Burung Hantu
22. Susunan nada yang teratur akan membentuk ....
   a. pola irama
   b. ketukan
   c. nada
   d. lirik

23. Birama yang terdapat pada lagu "Ambilkan Bulan Bu" adalah ....
    a. 2/4
    b. 3/4
    c. 3/8
    d. 3/2
24. Bernyanyi akan lebih menyenangkan jika dilakukan secara ....
    a. sembunyi-bunyi
    b. bersama-sama
    c. individual
    d. mandiri

PJOK (KD 3.5 dan 4.5)

25. Perhatikan gambar berikut!

Kedua lengan direntangkan untuk menjaga ....
    a. kebugaran
    b. keamanan
    c. keseimbangan
    d. kekuatan
26. Perhatikan gambar berikut!

Gerakan pada gambar melatih gerak keseimbangan dan ....
    a. bertumpu
    b. menahan
    c. kekuatan
    d. ketepatan
27. Berdiri satu kaki merupakan bentuk gerakan ....
    a. lokomotor
    b. melompat
    c. melayang
    d. keseimbangan

Perhatikan gambar berikut untuk menjawab soal nomor 28 dan 29!

28. Langkah awal saat melakukan gerakan pada gambar adalah ....
    a. duduk
    b. berdiri satu kaki
    c. berdiri sikap tegak
    d. jongkok
29. Gerakan pada gambar dapat melatih ....
    a. kekuatan
    b. keseimbangan
    c. kepekaan
    d. kelenturan
30. Posisi yang stabil dengan menggunakan tenaga tangan dan lengan agar tubuh serta bahu berada pada suatu alat disebut .... (HOTS)
    a. keseimbangan
    b. ketangkasan
    c. tumpuan
    d. kelenturan