Nom.....

Argent



Quelle est la valeur de ces pièces?

¢

¢

¢

¢

$

$

Quelle est la valeur totale de ces pièces?

¢

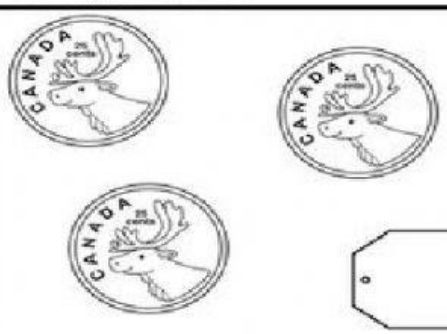

¢

¢

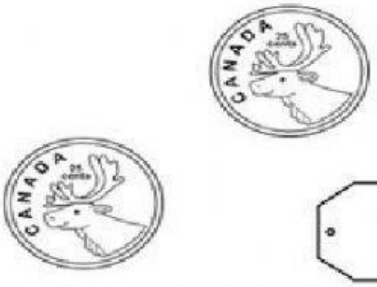

¢

Valérie Cadieux

Comptage des Pièces de Monnaie Canadienne (A)

Faites le total de chaque collection de pièces de monnaie ci-dessous.

1.

$ _____

2.

$ _____

3.

$ _____

4.

$ _____

5.

$ _____

6.

$ _____

Image de pièces Monnaie royale canadienne -- Tous droits réservés ©2015