Rozwiąż poniższe zadania. Obliczenia wykonaj w zeszycie, na karcie pracy wpisz tylko wynik.

Na każdym rysunku podano pole prostokąta oraz długość jednego z boków. Oblicz długość drugiego boku prostokąta.

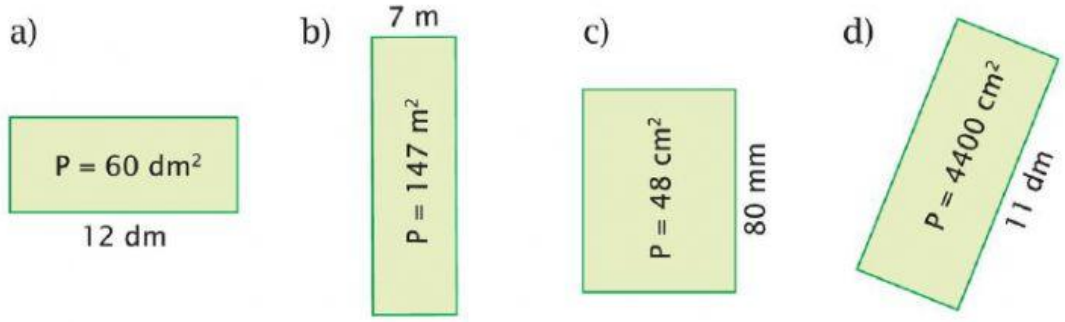

Każdy z czterech prostokątów ma wymiary 6 cm × 12 cm. Liczby na rysunkach to długości odcinków wyrażone w centymetrach. Oblicz pola zacieniowanych równoległoboków.

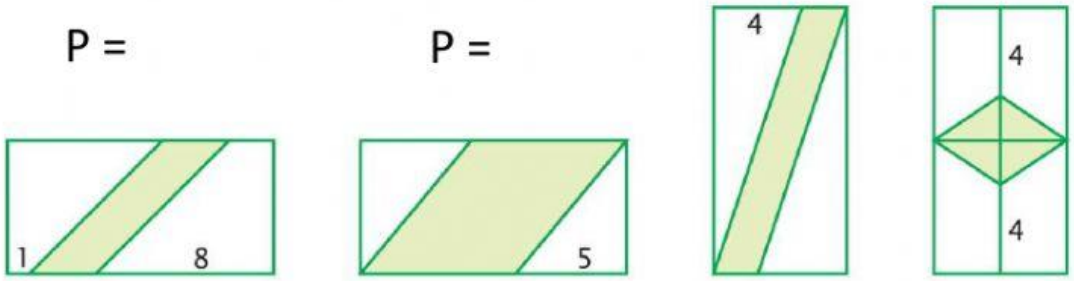

P = P =

Oblicz pola poniższych trapezów.

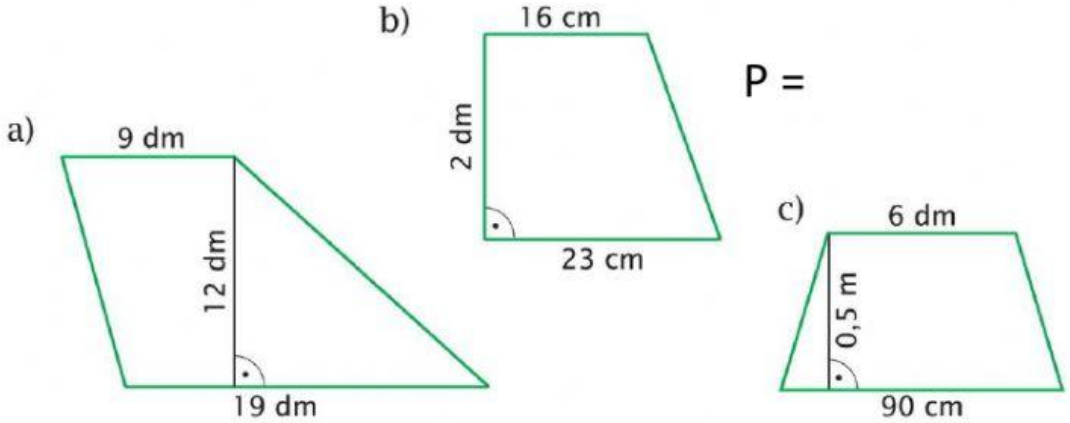

P = P =

P =