Тиждень 20

_____
(ім'я)

1+1 Обери наступну пару фігур.



Доповни схему. Розв'яжи задачу, склади рівність.

Маша написала 8 слів, а Буквик — на 3 слова менше. Скільки слів написав Буквик?

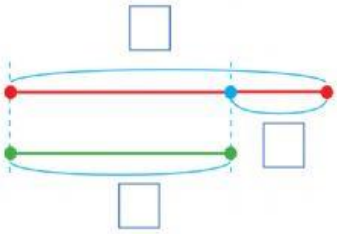

Буквик написав 5 слів, а Маша — 8 слів. На скільки слів більше написала Маша?

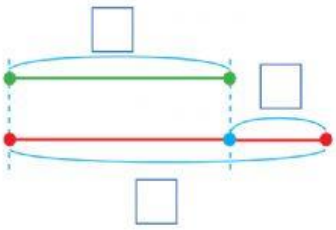

Буквик написав 4 слова, а Маша — 6 слів. Скільки слів написали Буквик і Маша разом?

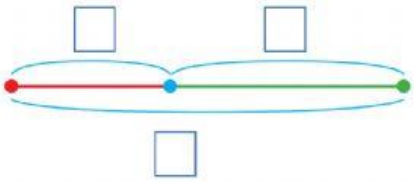

Добери арифметичну дію, щоб рівності були правильними.

8 ☐ 4 =4

9 ☐ 2 =7

4 ☐ 4 =8

6 ☐ 2 ☐ 2 =2

3 ☐ 6 ☐ 1 =10

3 ☐ 5 ☐ 1 =9

8 ☐ 4 ☐ 5 =9

9 ☐ 5 ☐ 4=8

4 ☐ 5 ☐ 2=7

Ostrovok