ΦΥΛΛΟ ΕΡΓΑΣΙΑΣ ΧΑΡΑΚΤΗΡΙΣΤΙΚΗ ΚΑΜΠΥΛΗ ΑΝΤΙΣΤΑΣΗΣ

ΟΝΟΜΑ **ΕΠΙΘΕΤΟ**

ΠΕΙΡΑΜΑΤΙΚΗ ΔΙΑΔΙΚΑΣΙΑ

Πραγματοποιούμε το κύκλωμα του σχήματος , που περιλαμβάνει

1. Πηγή 2. Λάμπα 3. Αμπερόμετρο 4. Βολτόμετρο..



Ποιο από τα παρακάτω σχέδια είναι το σωστό.

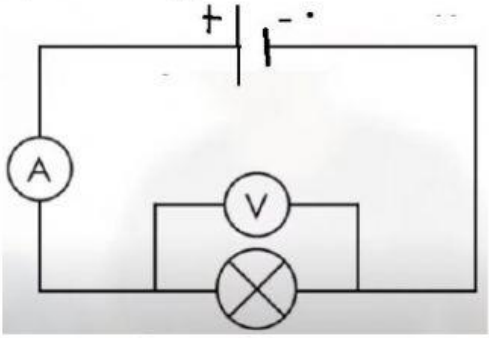

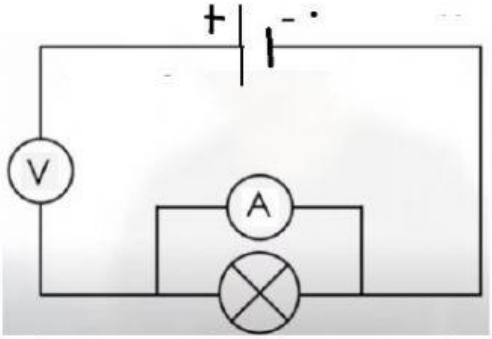

ΔΕΙΤΕ ΤΟ VIDEO ΠΡΑΓΜΑΤΟΠΟΙΗΣΗΣ ΤΟΥ ΠΕΙΡΑΜΑΤΟΣ

ΕΠΕΞΕΡΓΑΣΙΑ ΜΕΤΡΗΣΕΩΝ

Από την πειραματική διαδικασία προέκυψε ο ακόλουθος πίνακας μετρήσεων
Να συμπληρώσετε τον πίνακα.

V(Volt)	I(A)	R(Ω)
1·37	1·14	
7·89	1·73	
5·14	1·48	
4·06	1·23	
2·07	0·89	
0·00	0·00	

Ποια η μέση αντίσταση;……Ω

ΔΕΙΤΕ ΤΟ VIDEO ΕΠΕΞΕΡΓΑΣΙΑΣ ΤΩΝ ΜΕΤΡΗΣΕΩΝ

Από την κλίση του διαγράμματος στο video η αντίσταση είναι……Ω