Kontrolinis darbas

1. Sudėliokite Egipto visuomenės piramidę.

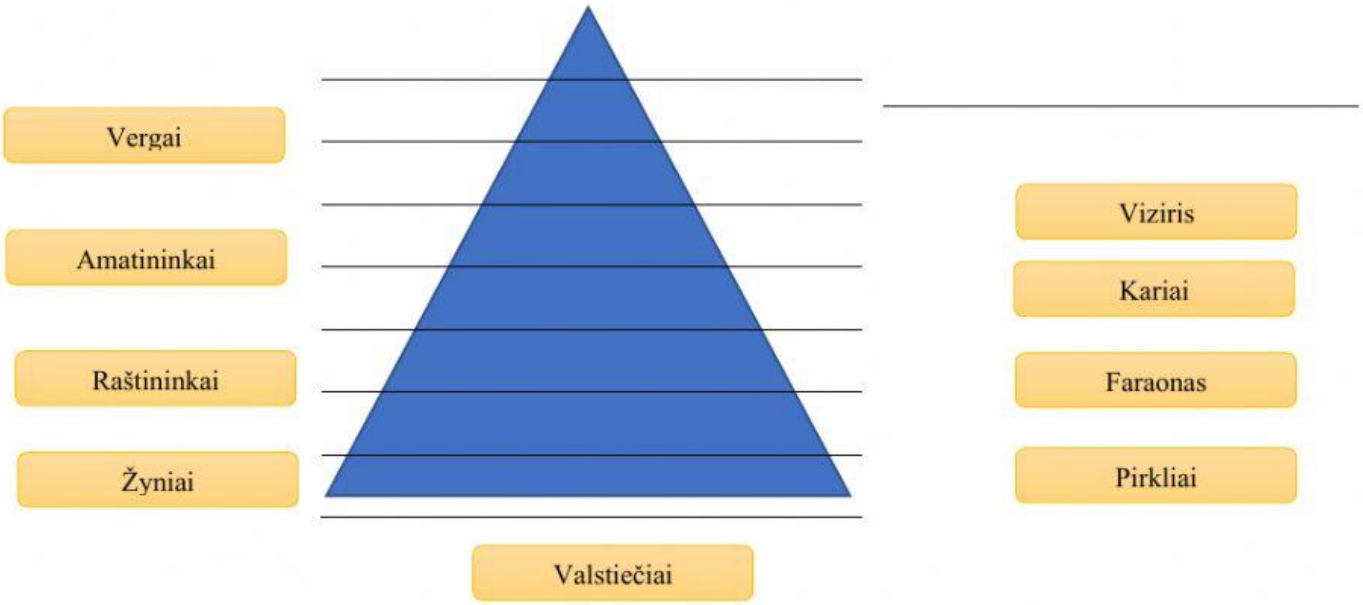

2. Dievams priskirkite apibūdinimus.

Ra	Išminties ir Mėnulio dievas, teisėjas.
Izidė	Šeimos ir vaikų globėja
Amonas	Pomirtinio pasaulio ir derlingumo dievas
Anubis	Faraonų globėjas
Horas	Balzamavimo dievas, mirusiųjų globėjas
Hator	Meilės, laimės, meno ir linksmybių deivė
Ozyris	Saulės dievas
Totas	Tėbų miesto dievas, vėliau sulietas su kitu dievu

3. Taškų vietoje įrašykite reikiamą žodį, pritaikydami reikiamą linksnį: aliejus, viduriai, kanopa, sarkofagas, druska, amuletas, širdis, mumija, drobė.

Pirmiausia iš mirusiojo išimdavo ....., palikdavo tik ..... . Vėliau palaikus džiovindavo sodoje arba ..... . Paskui, kad kūnas taptų tvirtesnis, apdorodavo jį ....., dervomis ir į vidų priberdavo smėlio arba pjuvenų, skudurų. Tada kūną vyniodavo į ..... ir apdėdavo įvairiais ....., kurie turėjo jį saugoti pomirtinėje kelionėje. Amžinajam gyvenimui parengtą ..... dėdavo į medinę

žmogaus pavidalo dėžę, o ją į didesnį akmeninį ..... Mirusiojo vidaus organus sudėdavo į laidojimo indus ..... ir pastatydavo kapavietėje.

4. Įvardinkite egiptiečių palaidojimus.



Hipogėjas | Piramidė | Mastaba

3. Kuo senovės egiptiečių ir senovės lietuvių tikėjimai buvo panašūs? Jei teiginys teisingas, pažymėkite raidę T, jei teiginys neteisingas – N.

T N Buvo tikima pomirtiniu gyvenimu.

T N Dievus garbino tik moterys.

T N Dievų garbei statė šventyklas.

T N Tikėta, kad dievai valdo gamtą.

T N Vienas dievas buvo laikomas svarbiausiu.

T N Visi dievai buvo laikomi vienodai svarbiais.

T N Žmonės garbino daugybę dievų.

T N Žmonės garbino tik vieną dievą.

5. Atlikite užduotis, naudodamiesi žemėlapiu.

a) Kas žemėlapyje pažymėta žalia spalva?

b) Kas žemėlapyje pažymėta geltonai?

c) Žemėlapyje surašykite jūrų pavadinimus, Aukštutinio ir Žemutinio Egipto pavadinimus.

6. Išnagrinėkite iliustraciją.

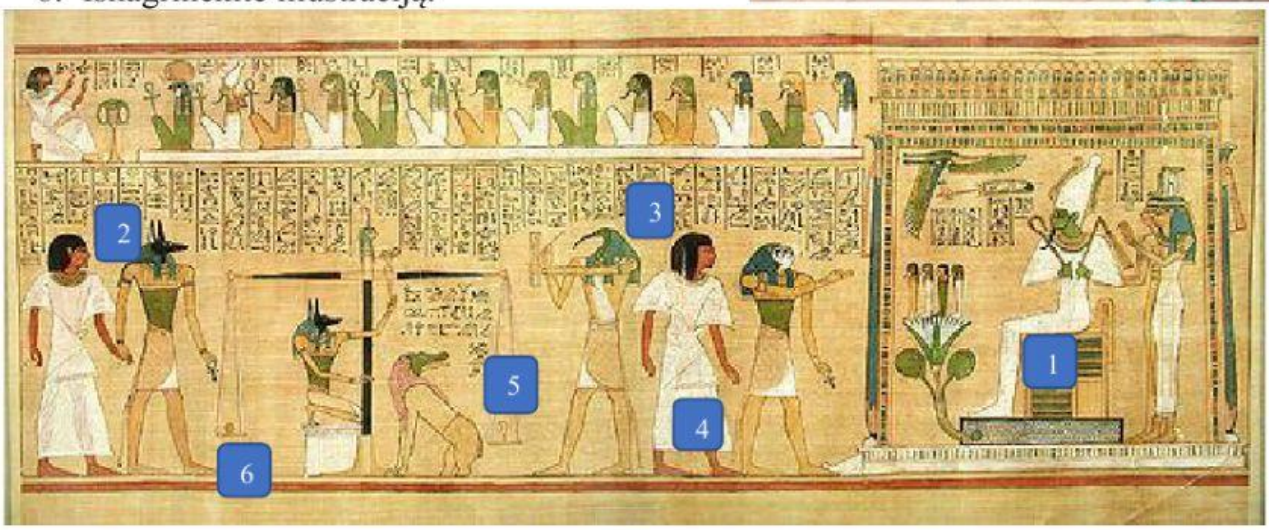

Totas	6
Anubis	4
Mirusysis	2
Ozyris	5
Širdis	3
Plunksna	1

Kas vaizduojama paveiksle?