13. Escribe con cifras estas fracciones.

| | |
|---|---|
| • Un tercio | |
| • Seis séptimos | |
| • Tres octavos | |
| • Cinco novenos | |
| • Tres cuartos | |
| • Dos quintos | |
| • Cuatro sextos | |
| • Un tercio | |
| • Un décimo | |

14. Indica qué fracciones son menores que la unidad, cuáles mayores y cuáles iguales.

$\frac{5}{8}$ $\frac{10}{10}$ $\frac{15}{9}$ $\frac{35}{30}$ $\frac{20}{20}$

$\frac{7}{6}$ $\frac{199}{90}$ $\frac{30}{30}$ $\frac{9}{12}$ $\frac{75}{100}$

| MAYORES | MENORES | IGUAL |
|---|---|---|
| | | |

15. Copia y completa.

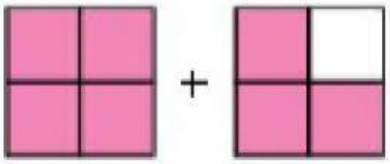

$$\rightarrow \frac{4}{\square} + \frac{\square}{\square} = \frac{\square}{\square}$$

16. Escribe la fracción y el número mixto que representan cada figura.

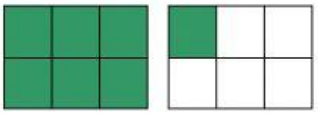

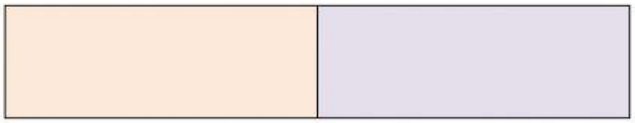

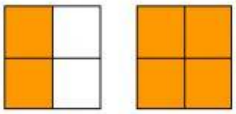

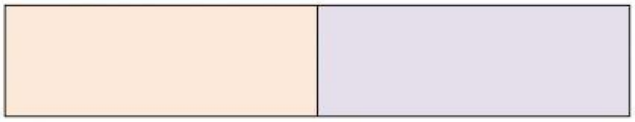



17. Copia y escribe un número mixto para cada expresión.

| LETRA | NÚMERO |
|---|---|
| Dos y un tercio | |
| Uno y dos tercios | |
| Cinco y tres cuartos | |
| Cuatro y un medio | |
| Tres y un cuarto | |