ДОСЛІДЖУЄМО ПРЯМОКУТНИК

1 Обери фігури, в яких є прямі кути.

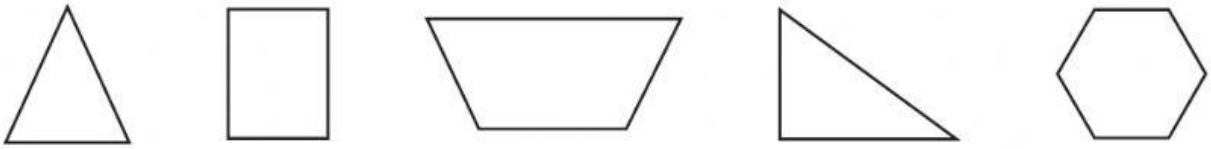

Чотирикутник, у якого всі кути прямі, називають прямокутником.

2



Обери лише прямокутники. Дай назву множині.

3 Відшукай серед поданих фігур прямокутники
Назви їх.

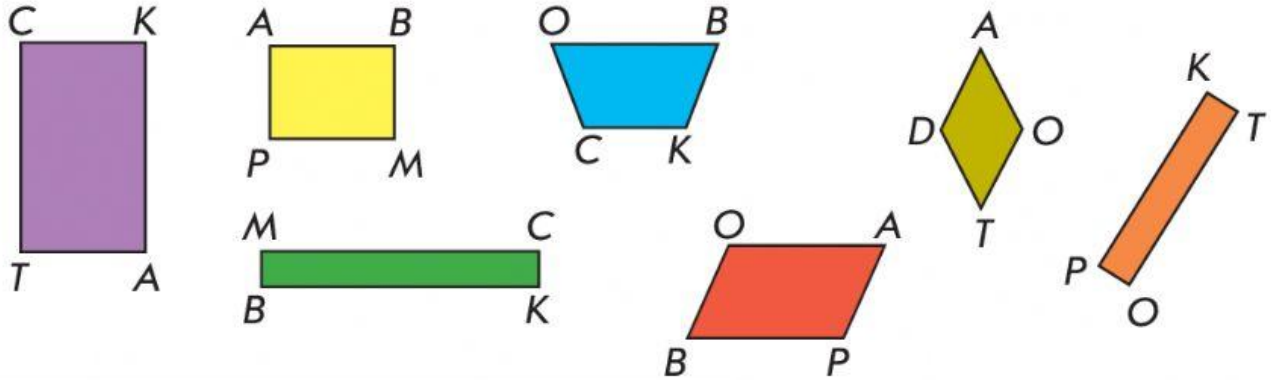

Протилежні сторони прямокутника попарно рівні. Знайди протилежні рівні строни.





KMPL — прямокутник

KM = _____

PL = _____

LK = _____

MP = _____

ABSD — прямокутник

AB = _____

SD = _____

DA = _____

BS = _____