Ciencias Sociales. Unidad 2. Los paisajes de Europa	Ed. Primaria. 6º Nivel	
Nombre:	Fecha	nº

1. Escribe cada uno de estos ríos en la vertiente que le corresponde (2,6 puntos):

Pechora Danubio Volga Dvina Septentrional Rin Ebro Tajo
Dniéster Loira Elba Vístula Ródano Po

Vertiente Ártica	Vertiente Atlántica	Vertiente Mediterránea	Vertiente del Mar Caspio	Vertiente del Mar Negro

2. Escribe en el mapa el número asignado a cada unidad de relieve (2,4 puntos)

1. Montes Escandinavos
2. Montes Urales
3. Alpes
4. Apeninos
5. Cárpatos
6. Cáucaso
7. Pirineos
8. Balcanes
9. Meseta Central
10. Meseta de Finlandia
11. Meseta de Valdai
12. Gran Llanura Europea

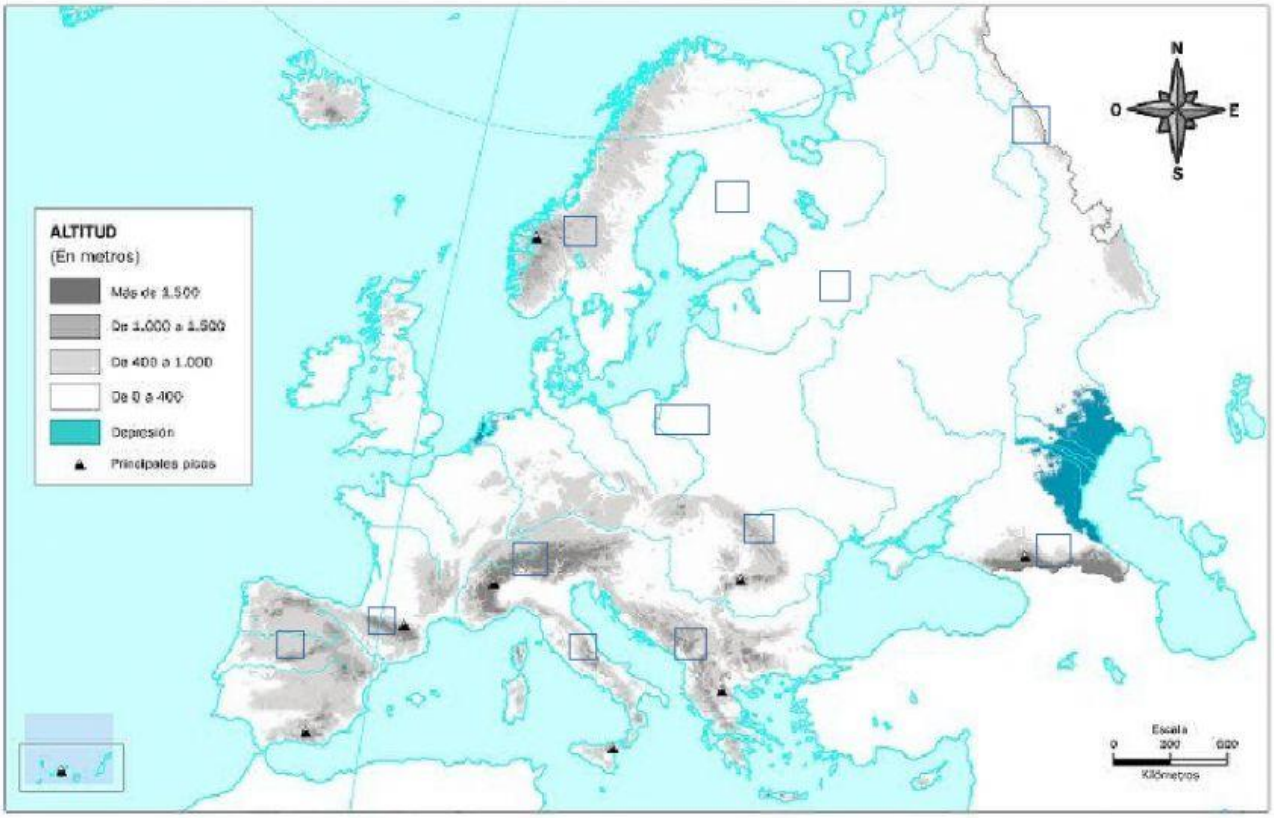

3. Escribe cuáles son las fronteras naturales de Europa (1 punto)

Al norte: .....

Al Sur: .....

Al Este: .....

Al Oeste: .....

4. Escribe en el mapa el número que corresponde a cada **río, lago, Isla, océano, mar** o **accidente costero (2,5 p.):**

1. Océano Atlántico | 2. Islandia | 3. Irlanda | 4. Sicilia | 5. Creta | 6. Chipre | 7. Mar Caspio

8. Mar Negro | 9. Mar Tirreno | 10. Canal de la Mancha | 11. Estrecho de Gibraltar | 12. Estrecho del Bósforo

13. Mar del Norte | 14. Mar Báltico | 15. Mar Egeo | 16. Mar Jónico | 17. Mar Adriático | 18. río Rin | 19. río Tajo

20. río Danubio | 21. río Volga | 22. lago Ladoga | 23. Lagos suizos | 24. Albufera de Valencia | 25. Mar Mediterráneo

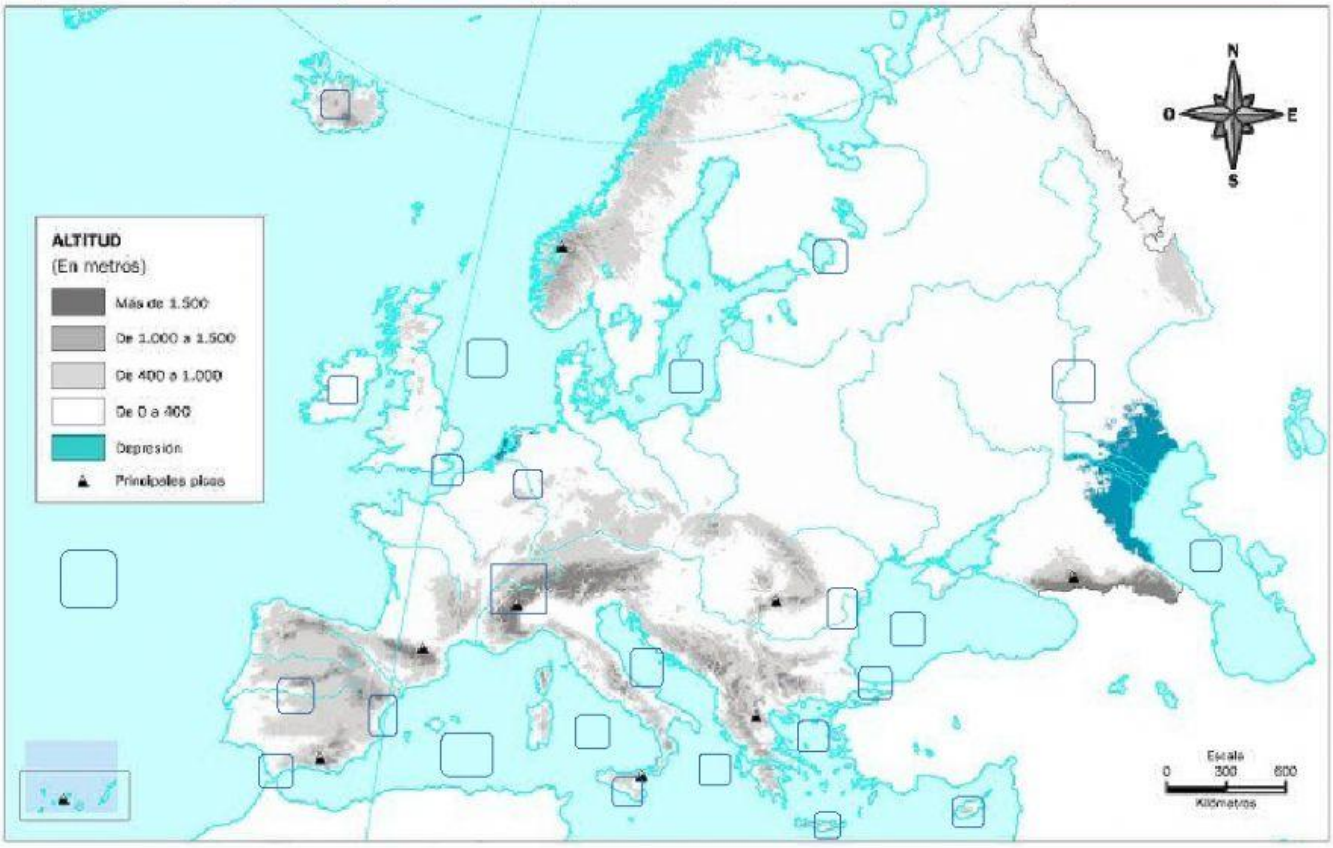

5. Explica lo que ocurre en el gráfico, sin olvidar las consecuencias (1,5p.)



.....

.....

.....

.....

.....

.....

.....