Haz lo que las flechas te dicen. Encuentra los números que faltan.

a)

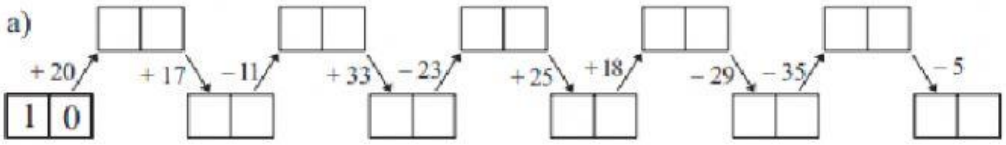

b)

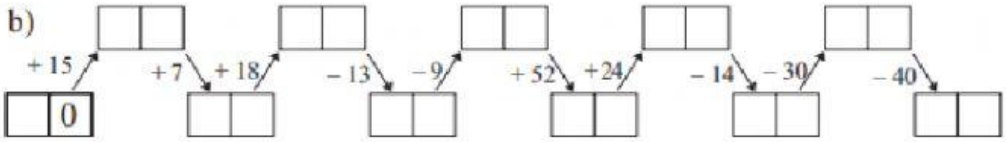

c) Crea tus propias operaciones para llegar al 0 a partir del 100.

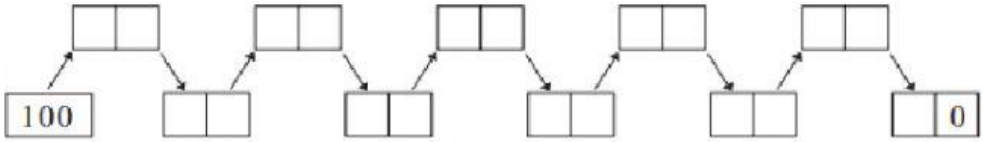

¿Cuál es el valor de cada sobre? Escribe una multiplicación abajo de cada dibujo.

a)

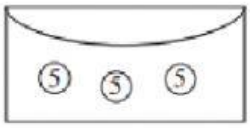

.....

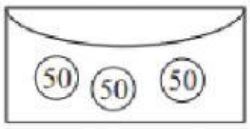

.....

b)

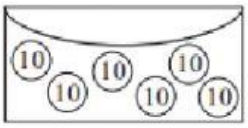

.....

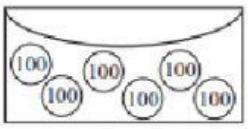

.....

c)

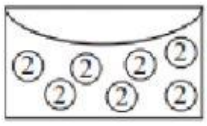

.....

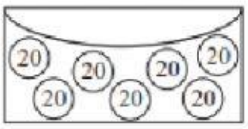

.....

Ignacio tenía 37 canicas. Ganó 11 canicas de cada uno de sus 3 amigos.
¿Cuántas canicas tiene ahora Ignacio?

☐ canicas

RETO
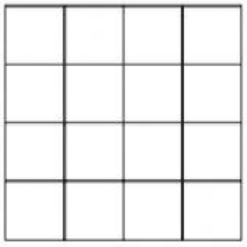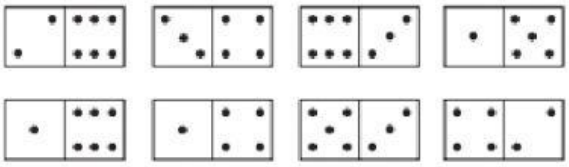
¡Trata de resolver este difícil puzzle! Dibuja los dominós en el cuadrado de tal forma que cada, columna y diagonal tenga el mismo número de puntos.