مدرسة ابن سينا الابتدائيه

ورقة عمل للرابع

الاشكال الرباعيه

الاضلاع المتوازيه والمتعامده

الاسم:_____ التاريخ:_____

أمامك أشكال رباعيه, أكتب داخل كل شكل أسمه.

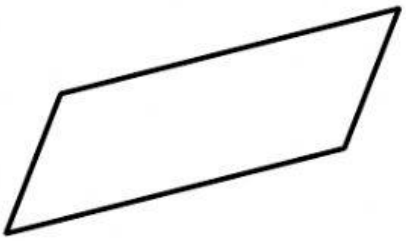

_____

_____

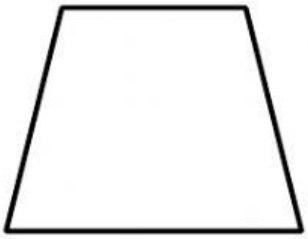

_____

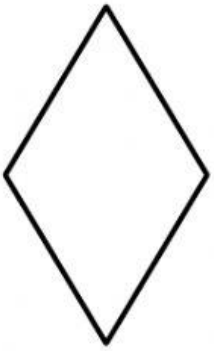

_____



_____



_____

مدرسة ابن سينا الابتدائيه

ماذا يُمكن أن نُسمّي الضلعان المُؤكدان في الاشكال الاتيه؟

(متوازيان او متعامدان)

أ)

ب)

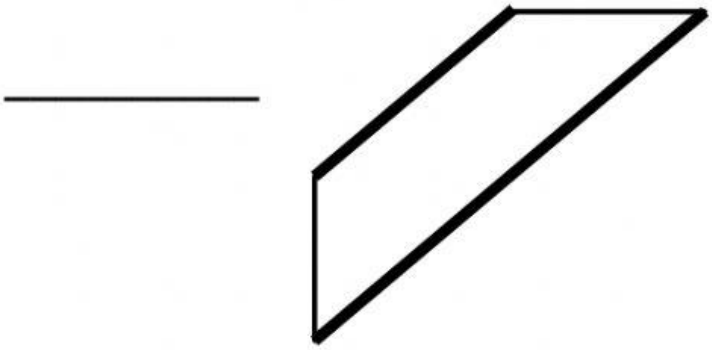
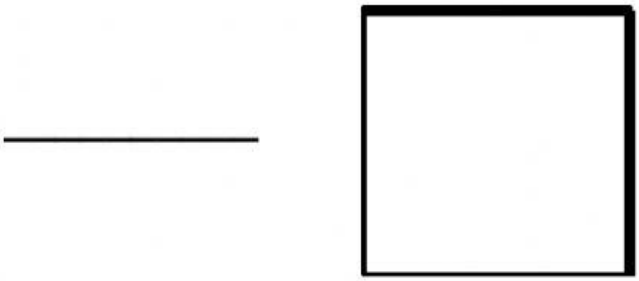
ج)