MATEMÁTICAS

1. Busca el número que representan los bloques, colócalo y escribe su anterior y posterior.

377 455 249 567

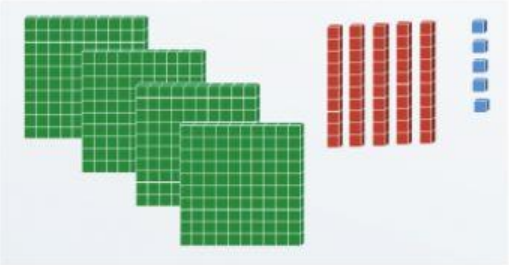

Anterior Posterior

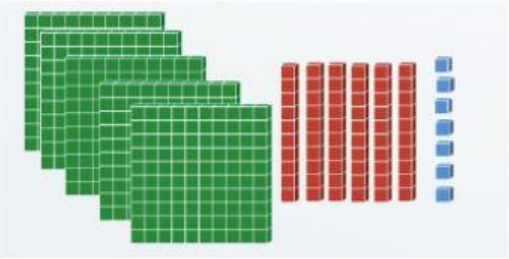

Anterior Posterior

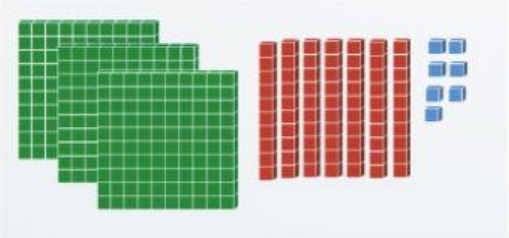

Anterior Posterior

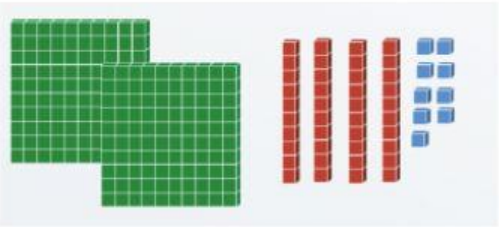

Anterior Posterior

2. Ordena los números de los bloques del ejercicio anterior de menor a mayor.

___ < ___ < ___ < ___