Тиждень № ☐ **Урок №** ☐

(ім'я та прізвище)

Напиши дату та форму роботи (самостійна).

Обчисліть «ланцюжки».

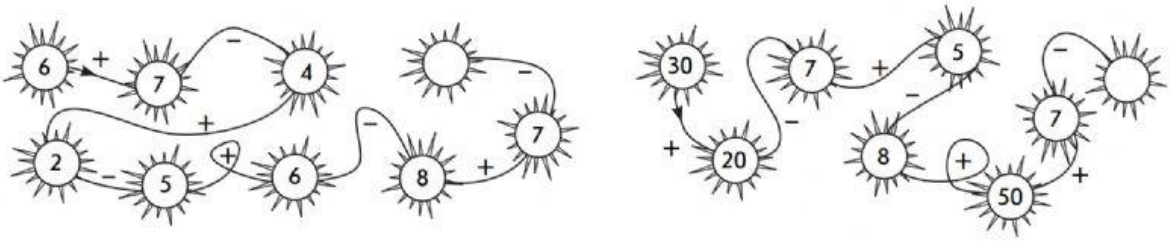

Назви геометричні фігури.

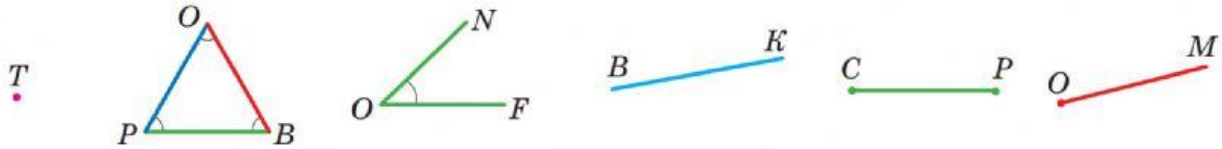

Буквик зафарбував у фігурах кути рожевим кольором. Відшукай їх та познач буквами за зразком.

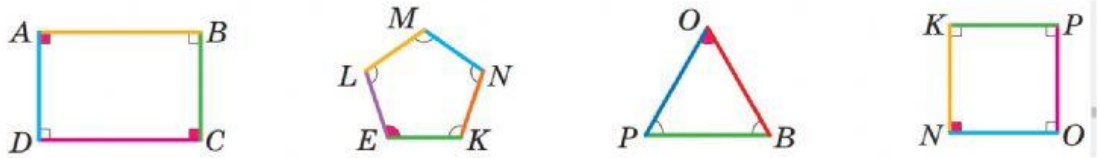

∠ DAB ∠ ☐ ∠ ☐ ∠ ☐ ∠ ☐

Перевір, чи правільно знайдено результати. Відшукай помилки.

67 − 8 = 59	54 + 7 = 47	81 − 3 = 78
46 + 8 = 64	74 − 5 = 69	16 + 9 = 26

Знайди значення виразів.

(40 - 8) + (4 + 7) = ☐ 45 - (7 + 4) +9 = ☐ 62 - (18 - 9) + 21 = ☐

40 - (8 + 4) + 7 = ☐ 45 - 7 + (4 + 9) = ☐ (62 - 18) - (9 + 21) = ☐